المملكة العربية السعودية
وزارة التعليم
مدرسة :

وزارة التعليم
Ministry of Education

اسم الطالب : .....
الصف : ٣ /

اختبار مادة العلوم للصف الثالث الفصل الدراسي الأول (الفترة الثانية) لعام ١٤٤٧ هـ

السؤال الأول : ضع علامة (✓) أمام العبارة الصحيحة، وعلامة (✗) أمام العبارة الخاطئة ؟

١	الموطن المكان الذي يعيش فيه المخلوق الحي و يجد حاجاته الأساسية .	( )
٢	المنتج مخلوق حي يصنع غذائه بنفسه .	( )
٣	التلوث دخول مواد ضارة في الهواء أو الماء أو التربة .	( )
٤	الجفاف أحد أشكال الكوارث الطبيعية ينتج عن الأمطار الغزيرة و العواصف .	( )

٤

السؤال الثاني : أكتب الإجابة الصحيحة من المجموعة (أ) أمام ما يناسبها من المجموعة (ب) ؟

	المجموعة (أ)
١	الجفاف
٢	المستهلكات
٣	الشبكة الغذائية
٤	النشاط الليلي
٥	الترشيد

	المجموعة (ب)
	استهلاك أقل كمية من الشيء .
	ينام الحيوان نهاراً و ينشط ليلاً عندما يبرد الجو .
	تشابك السلاسل الغذائية .
	مخلوق حي يتغذى على مخلوق حي آخر .

٤

السؤال الثالث : أجب عن الأسئلة التالية من خلال الصورة المجاورة ؟



١- كون سلسلة غذائية ؟ ..... ، ..... ، ..... .

٢- أذكر تكيف واحد للجمل في بيئة الصحراء ؟ .....

٣- مخلوق حي منتج ؟ .....

٤- مخلوق حي مستهلك ؟ .....

٢

السؤال الرابع : أكمل الفراغات التالية بالكلمة المناسبة ؟

النظام البيئي – التخفي – الحرائق – إحداث التنافس – الهجرة

١- ..... انتقال الحيوانات من مكان إلى آخر بحثا عن الغذاء و الماء .

٢- ..... اندماج شكل و لون الحيوان مع بيئته .

٣- ..... من طرق تغيير الإنسان للبيئة .

٤- ..... المخلوقات الحية و الأشياء الغير حية التي تتشارك بالموطن و يوجد بينها تفاعل .

٤

٦

السؤال الخامس : اختر الإجابة الصحيحة فيما يلى ؟

١- تعتبر ديدان الأرض .



أ) منتجات

ب) مستهلكات

ج) محللات

٢- أشواك القنفذ تساعده على .



أ) حمايته من الأعداء

ب) التخفي

ج) الحصول على الغذاء

٣- تساعد جذور نباتات الصحراء على



أ) حماية النبات

ب) امتصاص أكبر كمية من الماء

ج) صنع الغذاء

٤- يغير الإنسان بيئته فى الصورة .



أ) التلوث

ب) إزالة الغابات و الاحتطاب

ج) إحداث التنافس

٥- تمثل الصورة المجاورة .



أ) التدوير

ب) الترشيد

ج) إعادة الاستخدام

٦- يعد غزال الريم حيوان .



أ) مهدد بالانقراض

ب) منقرض

ج) شيء غير حي

" انتهت الأسئلة "

مع تمنياتي لكم بالتوفيق و النجاح

المملكة العربية السعودية
وزارة التعليم
الإدارة العامة للتعليم بالمنطقة الشرقية
مدرسة عاصم بن ثابت للطفولة المبكرة

وزارة التعليم
Ministry of Education

٢٠

اختبار الفترة الثانية (الفصل الدراسي الأول) مادة العلوم للصف الثالث ابتدائي لعام ١٤٤٧هـ

اسم الطالب.....

١٠

السؤال الأول:

أ- اختار الإجابة الصحيحة من بين القوسين فيما يلي:

١	**حركة فجائية لصخور القشرة الأرضية:**		
	الزلازل	البراكين	الفيضان
٢	**تسبب البراكين في:**		
	سقوط الامطار	قتل المخلوقات الحية	حدوث الجفاف
٣	**من الحيوانات المهددة بالانقراض:**		
	الجراد	الثعابين	غزال الريم
٤	**من تغيرات البيئة المفيدة التي يحدثها الإنسان**		
	إزالة الغابات	زراعة الاشجار	تلوث البيئة
٥	**من الحيوانات التي تنشط ليلًا:**		
	العصفور	الخفاش	الحصان

ب-أكمل الفراغات التالية بالمصطلح العلمي المناسب لها:

(التلوث - التكيف – التنافس – البركان – الهجرة)

١- .....استخدام أكثر من مخلوق حي للمورد في الوقت نفسه.
٢- .....فتحة في القشرة الأرضية تندفع منها الصهارة.
٣- .....هو التركيب أو السلوك الذي يساعد المخلوق الحي على البقاء حيًا في بيئته.
٤- ..... إدخال مواد ضارة إلى الماء أو الهواء أو التربة.
٥- ..... هي انتقال المخلوق الحي من مكان إلى آخر.

اقلب الصفحة

١٠

ج- ضع علامة (✓) أمام العبارة الصحيحة وعلامة (✗) أمام العبارة الخاطئة فيما يلي:

	العبارة	العلامة
١	تؤدي الفيضانات إلى انجراف التربة.	
٢	من التغيرات التي تضر البيئة التدوير.	
٣	تكيف الجمل الذي يمكنه من أكل النباتات الصحراوية الشوكية سنام الجمل.	
٤	يمكن لنباتات جديدة أن تنمو بعد الحريق.	
٥	إذا تبقى عدد قليل من أفراد نوع المخلوق الحي يصبح مهدد بالانقراض.	

هـ - أكمل خريطة المفاهيم التالية بما يناسبها:

يمكن للإنسان حماية بيئته بثلاث طرق هي:

.....	.....	.....

د – اضع الكلمات التالية في المكان المناسب: (الصهارة – اللابة)

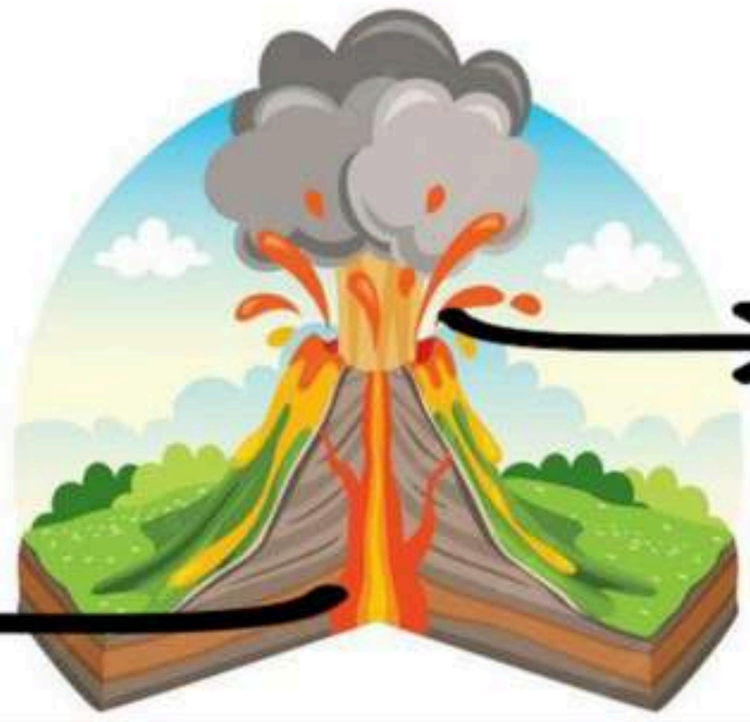

.....

.....

بالتوفيق للجميع

معلمات الصف الثالث

المملكة العربية السعودية
وزارة التعليم
مدارس براعم السعودية الاهلية

VISION رؤية 2030 وزارة التعليم

اختبار (الفترة ٢ الفصل الدراسي الأول) مادة العلوم للصف الثالث لعام ١٤٤٧هـ

اسم الطالب / ة : ..... الدرجة / ٢٠

١٢

السؤال الأول ☺

أ) نضع علامة ✔ او ✖ امام العبارات التالية:

○	الانسان اكثر المخلوقات الحية التي تحدث تغيرا بالبيئة
○	الموطن هو المكان الذي تعيش فيه المخلوقات الحية
○	المنتج هو اول مخلوق في السلسلة الغذائية
○	الغابة مثال على نظام بيئي صغير

ب) نصل كل مصطلح علمي بالعبارة المناسبة له :-

المصطلح العلمي	العبارات
التكيف	سلوك أو تركيب يساعد المخلوق الحي على البقاء
الشبكة الغذائية	دخول مواد ضارة في الهواء او الماء او التربة
التلوث	تشابك السلاسل الغذائية بعضها مع بعض
التنافس	استخدام اكثر من مخلوق حي للمورد في الوقت نفسة

ج) نرتب السلسلة الغذائية من (1 – 4) :






....

٨

السؤال الثاني ☺

أ - نختار الإجابة الصحيحة فيما يلي :

١ – أي مما يأتي يضر البيئة اللي نعيش فيها
أ- رمي النفايات
ب – زراعة الأشجار
جـ - التدوير
2- .مخلوقات حية تحلل بقايا النباتات والحيوانات
أ- المفترسات
ب - المنتجات
جـ - المحللات
3- إستخدام الشي أكثر من مرة
أ- إعادة الاستخدام
ب – الترشيد
جـ - التدوير
4- يحدث عن توقف الامطار لفترة زمنية طويلة
أ- الفيضان
ب - الجفاف
جـ - العواصف
5- اتخاذ المخلوق الحي شكل او لون البيئة التي يعيش فيها
أ- التخفي
ب - النشاط الليلي
جـ - الهجرة

ب) نعدد ٢ من الموارد التي تحتاجها المخلوقات الحية :

١).....

٢).....



معلمة المادة : أسرار الدوسري

٨

السؤال الثاني ☺

أ - نختار الإجابة الصحيحة فيما يلي :

١ – أي مما يأتي يضر البيئة اللي نعيش فيها
أ- رمي النفايات
ب – زراعة الأشجار
جـ - التدوير
2- .مخلوقات حية تحلل بقايا النباتات والحيوانات
أ- المفترسات
ب - المنتجات
جـ - المحللات
3- إستخدام الشي أكثر من مرة
أ- إعادة الاستخدام
ب – الترشيد
جـ - التدوير
4- يحدث عن توقف الامطار لفترة زمنية طويلة
أ- الفيضان
ب - الجفاف
جـ - العواصف
5- اتخاذ المخلوق الحي شكل او لون البيئة التي يعيش فيها
أ- التخفي
ب - النشاط الليلي
جـ - الهجرة

ب) نعدد ٢ من الموارد التي تحتاجها المخلوقات الحية :

١)...الغذاء.....

٢)...الماء.....



معلمة المادة :

المملكة العربية السعودية
وزارة التعليم
الإدارة العامة للتعليم بمحافظة الطائف
ابتدائية

20

اختبار (الفترة الثانية) لمادة العلوم للصف الثالث لعام ١٤٤٧هـ

اسم الطالب / .....

السؤال الأول: ضع علامة (✓) أمام العبارة الصحيحة وعلامة (✗) أمام العبارة الخاطئة ؟

1-	يسمى أول مخلوق حي في السلسلة الغذائية المنتج .	( )
2-	لا تستطيع النباتات الصحراوية التكيف في الصحراء .	( )
3-	الهجرة هي انتقال المخلوقات الحية من بيئة باردة إلى بيئة دافئة.	( )
4-	الجفاف أحد أنواع الكوارث الطبيعة يحدث نتيجة الأمطار الغزيرة .	( )

السؤال الثاني: أكمل الفراغات التالية بالكلمة المناسبة ؟

(التلوث – التخفي – المحللات – التنافس)

1- ..... مخلوقات حية تحلل بقايا النباتات والحيوانات .

2- ..... استخدام أكثر من مخلوق حي للمورد في الوقت نفسه.

3- ..... التكيف الذي يتغير فيه المخلوق الحي ليصبح مشابها للبيئة التي يوجد فيها .

4- ..... ادخال مواد ضارة إلى الماء أو الهواء أو التربة .

السؤال الثالث : رتب السلسلة الغذائية التالية من (1 - 4) ؟






....

يتبع

السؤال الرابع : أختر الإجابة الصحيحة ؟

1- كيف تساعد الأشواك القنفذ على البقاء ؟



- تحافظ على حرارته
- يمسك بغذائه
- تحميه من الأعداء

2- يعتبر النمر



- محلل
- مستهلك
- منتج

3- من تكيفات الأرانب البرية



- الفرو السميك
- الآذان الصغيرة
- الآذان الكبيرة

4- أي من الحيوانات لا يتنافس مع الزرافةعلى الغذاء ؟



- الحمار الوحشي
- الأسد
- وحيد القرن

5- يعتبر الثعبان في السلسلة الغذائية



- محلل
- مستهلك
- منتج

6- مكان يعيش فيه المخلوق الحي ويجد حاجاته

- نظام بيئي
- تكاثر
- موطن

7- يمثل الشكل المجاور



- سلسلة غذائية
- شبكة غذائية
- نظام بيئي

8- من تكيفات الخفاش



- اللون الفاتح
- النشاط الليلي
- التخفي

9- غزال الريم حيوان .....

- منقرض
- مهدد بالانقراض
- شيء غير حي

10- كيف يمكن للإنسان حماية بيئته ؟

- قطع الأشجار
- التدوير
- استخدام الشيء مرة واحدة

" انتهت الأسئلة "

معلمتك /

السؤال الرابع : أختر الإجابة الصحيحة ؟

1- كيف تساعد الأشواك القنفذ على البقاء ؟



- ✓ تحافظ على حرارته
- يمسك بغذائه
- تحميه من الأعداء

2- يعتبر النمر



- محلل
- ✓ مستهلك
- منتج

3- من تكيفات الأرانب البرية



- الفرو السميك
- الآذان الصغيرة
- ✓ الآذان الكبيرة

4- أي من الحيوانات لا يتنافس مع الزرافةعلى الغذاء ؟



- الحمار الوحشي
- ✓ الأسد
- وحيد القرن

5- يعتبر الثعبان في السلسلة الغذائية



- محلل
- ✓ مستهلك
- منتج

6- مكان يعيش فيه المخلوق الحي ويجد حاجاته

- نظام بيئي
- تكاثر
- ✓ موطن

7- يمثل الشكل المجاور



- سلسلة غذائية
- ✓ شبكة غذائية
- نظام بيئي

8- من تكيفات الخفاش



- اللون الفاتح
- ✓ النشاط الليلي
- التخفي

9- غزال الريم حيوان .....



- منقرض
- ✓ مهدد بالانقراض
- شيء غير حي

10- كيف يمكن للإنسان حماية بيئته ؟

- قطع الأشجار
- ✓ التدوير
- استخدام الشيء مرة واحدة

" انتهت الأسئلة "

معلمتك /

اختبار الفترة الثانية للفصل الدراسي الأول للعام ١٤٤٧هـ للصف الثالث لمادة العلوم

الاسم : ..... الصف ٣/

السؤال الأول : اختار الإجابة الصحيحة :

١- من الآثار الناتجة عن البراكين هي:		
تكسر في صخور الأرض	سقوط الأمطار	موت الكائنات الحية
٢- تبدأ السلسلة الغذائية في المخلوقات الحية بـ :		
المحللات	المستهلكات	المنتجات
٣- " حركة فجائية لصخور القشرة الأرضية "		
التعرية	الزلازل	البراكين
٤- للجمل خفان يساعده على المشي في رمال الصحراء ، تسمى هذه العملية :		
التخفي	التكيف	البيات
٥- الرياح و الأمطار و المياه الجارية سبب لعملية		
التجوية	الجفاف	ذوبان الجليد
٦- بعض الحيوانات تنشط بالليل للبحث عن غذاءها وتستريح بالنهار مثل:		
الخفاش	البومه	الذئب
٧- " نقل الفتات الصخري الناتج عن عمليات التجوية "		
التجوية	التعرية	الانجراف
٨- يستطيع الإنسان أن يحافظ على بيئته بواسطة :		
قطع الأشجار	التدوير	حرق النفايات
٩- تتكون من المعادن وفتات الصخور و بقايا كائنات ونباتات متحللة ، هي :		
الدُبال	الصخور	التربة
١٠- من طرق الحفاظ على التربة بأن :		
لا تسقى بالماء	لا نضع لها الأسمدة	زراعتها

السؤال الثاني :



الصورة التي على اليسار تمثل إحدى عمليات تغييرات سطح الأرض هي ؟

.....

ما سبب حدوث هذه العملية ؟

.....

السؤال الثالث : رتب السلسلة الغذائية من البداية إلى النهاية بوضع الأرقام أسفل كل صورة :

					
عشب	الشمس	حشرة	فأر	نسر	ثعبان

السؤال الرابع : أجب عما يلي :

١-كيف يمكن للإنسان أن يحافظ على بيئته ؟

أ-..... ب-..... ج-.....

٢- كيف تتغير البيئة من خلال الكوارث الطبيعية:

أ-..... ب-..... ج-.....

السؤال الخامس : ضع الرقم المناسب في الفراغ من المجموعة الثانية

✖	المجموعة الأولى	✖	المجموعة الثانية
١	الترسيب		تربة تحتوي على نسبة عالية من الحديد
٢	التجوية والتعرية		القشرة
٣	الصهارة التي تصل لسطح الأرض		اللابة
٤	الطبقة الخارجية للأرض		عمليتان تعملان معا و ببطء
٥	لونها أحمر		عملية لتجميع الفتات الصخور في أماكن مختلفة

المملكة العربية السعودية
وزارة التعليم

المجموع: ٢٠ درجة

نموذج الإجابة

اختبار مادة العلوم للصف الثالث الابتدائي "الفترة الثانية" الفصل الدراسي الأول ١٤٤٧هـ
اسم الطالب: .....

٨ درجات

- ضَعْ عَلامَة (√) أمَامَ العِبَارَة الصَّحِيحَة، وعَلَامَة (×) أمَامَ العِبَارَة الخَاطِئَة:

١	الحيوانات كلها منتجات.	(×)
٢	التلوث هو إدخال مواد ضارة إلى الماء فقط؟	(×)
٣	كل أنواع المخلوقات تستطيع العيش في الصحراء؟	(×)
٤	للجمل قدرة على تحمل العطش ونقص الماء.	(✓)
٥	يغطي جسم القنفذ أشواك حادة ليحمي نفسه من أعدائه.	(✓)
٦	الموطن مكان يعيش فيه المخلوق الحي وتوجد فيه حاجاته.	(✓)
٧	النباتات تُسَمَّى منتجات.	(✓)
٨	الدَّور الذي تقوم به البكتيريا والديدان هو تحليل بقايا الكائنات الميّته.	(✓)

٧ درجات

- أخْتَارُ الإجَابَةَ الصَّحِيحَة مِمَّا يَلِي:

١/ أحد أشكال التكيف يمكن للمخلوق الحي البقاء آمنا في بيئته:

أ- التخفي	ب- الموطن	ج- التشجير

٢/ من أمثلة أكلات الأعشاب:

أ- الطيور	ب- الأسد	ج- الزرافة

٣/تحصل معظم المنتجات على الطاقة من:

أ- المحللات	ب- الشمس	ج- الصخور

٤/ يحدث بسبب الأمطار الغزيرة المستمرة:

أ- البراكين	ب- الزلزال	ج- الفيضانات

٥/أيّ مما يلي يضرّ البيئة التي نعيش فيها:

أ- التدوير.	ب- زراعة الأشجار.	ج- رمي النفايات.

٦/أيّ مما يلي يعد نشاطه ليلي ينام في النهار وينشط في الليل؟

أ- الذئب والثعبان	ب- الفيل	ج- الحصان

٧/مَجْمُوعة السَّلاسِل الغذائية المتداخلة في نظام بيئي معيّن تسمّى:

أ- الشبكة الغذائية	ب- الموطن	ج- التكيف

٤ درجات

- أكمل الفراغات التالية مما يلي من بين الأقواس التالية:

(مُنْقَرِضًا – الجفاف –- الشبكة الغذائية_ إعادة الاستخدام)

١- يحدث عند انحباس الأمطار فترة طويلة ..الجفاف.....
٢- الحيوان الذي لا يبقى من نوعه أيّ فرد يسمى حيوانًا .منقرضا.....
٣- يسمى تشابك السلاسل الغذائية ...الشبكة الغذائية.....
٤- يُمكن للإنسان حماية بيئته من خلال .....إعادة الاستخدام.....

١ درجة

سُؤال التميُّز:

- ما معنى الهجرة؟

هي انتقال المخلوق الحي من البيئة الباردة أو البيئة التي يقل فيها الغذاء إلى البيئة الأكثر دفئاً أو يتوافر فيها الغذاء.

المملكة العربية السعودية
وزارة التعليم
مدرسة .....

وزارة التعليم
Ministry of Education

المادة: العلوم
الصف: الثالث الابتدائي
الفصل الدراسي الأول

٢٠

اختبار مادة العلوم الفصل الدراسي الأول الفترة الثانية لعام ١٤٤٧- ١٤٤٨ هجري

اسم الطالب/ ---------- الصف/ ----------

٦

السؤال الأول/ أكمل كلًا من الجمل التالية بالكلمة المناسبة:

(منقرضًا - تدوير - البركان - الفيضان - القشرة - الجفاف)

١- ..... فتحة في القشرة الأرضية تندفع منها الصهارة .

٢- يحدث ..... عند توقف سقوط الأمطار فترة زمنية طويلة.

٣- الحيوان الذي لا يبقى من نوعه أي فرد يسمى حيوانًا .....

٤- تعمل الشركات على ..... علب الألمنيوم المستعملة

٥- الطبقة الخارجية من الأرض تسمى .....

٦- يحدث ..... بسبب الأمطار الغزيرة المستمرة.

٥

السؤال الثاني/ اختار الإجابة الصحيحة:

١- تتسبب البراكين في :

أ) تعرية الصخور. ب) قتل المخلوقات الحية. ج) حدوث الجفاف.

٢- أي مما يأتي يضر البيئة التي نعيش فيها ؟

أ) التدوير. ب) رمي النفايات. ج) زراعة الأشجار.

٣- يعني استهلاك أقل كمية من الشيء

أ) الترشيد. ب) التدوير. ج) التلوث.

٤- أي العمليات الآتية تعد من تغيرات الأرض الفجائية ؟

أ) انفجار البركان. ب) التجوية. ج) التعرية.

٥- يدفن نفسه في الطين عند حدوث الجفاف

أ) الفيل. ب) العصفور. ج) الضفدع.

يتبع >>

السؤال الثالث/

٤

ضع علامة (✓) أمام العبارة الصحيحة وعلامة (X) امام العبارة الخاطئة:

١- التنافس استخدام مخلوق حي واحد للمورد نفسه.	
٢- تؤثر التغييرات البينية في المخلوقات الحية.	
٣- الزلازل هي حركة فجائية لصخور القشرة الأرضية.	
٤- المخلوقات الحية لا تحدث تغييرًا في بينتها.	

٣

السؤال الخامس/ اكتب البيانات المناسبة على الرسم التالي :

٢

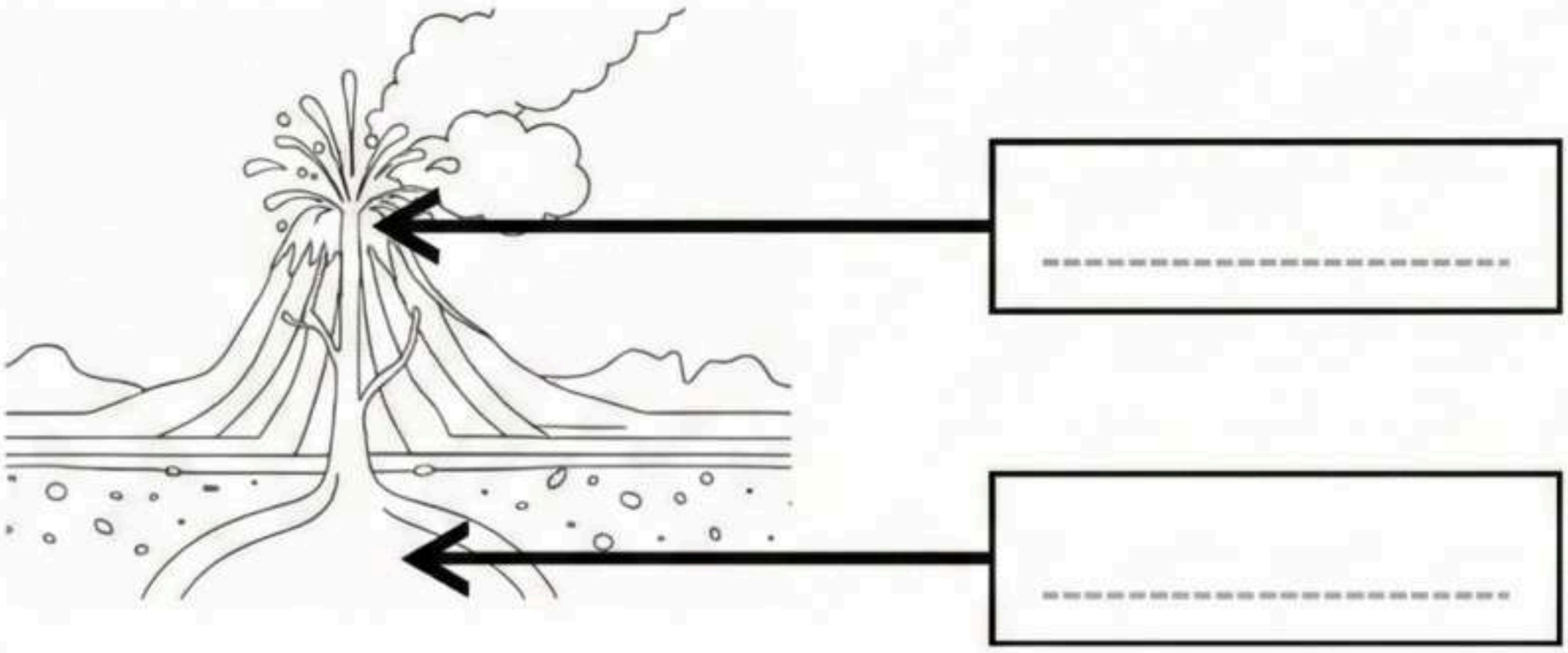

انتهت الاسئلة
بالتوفيق الجميع

المملكة العربية السعودية
وزارة التعليم
مدرسة .....

وزارة التعليم
Ministry of Education

المادة: العلوم
الصف: الثالث الابتدائي
الفصل الدراسي الأول

٢٠

اختبار مادة العلوم الفصل الدراسي الأول الفترة الثانية لعام ١٤٤٧- ١٤٤٨ هجري

نموذج الإجابة

اسم الطالب/ ..... الصف/ .....

السؤال الأول/ أكمل كلا من الجمل التالية بالكلمة المناسبة:

٦

(منقرضًا - تدوير - البركان - الفيضان - القشرة - الجفاف)

١- .....البركان..... فتحة في القشرة الأرضية تندفع منها الصهارة .

٢- يحدث .....الجفاف..... عند توقف سقوط الأمطار فترة زمنية طويلة.

٣- الحيوان الذي لا يبقي من نوعه أي فرد يسمى حيوانًا .....منقرضًا.....

٤- تعمل الشركات على .....تدوير..... علب الألمنيوم المستعملة

٥- الطبقة الخارجية من الأرض تسمى .....القشرة.....

٦- يحدث .....الفيضان..... بسبب الأمطار الغزيرة المستمرة.

السؤال الثاني/ اختار الإجابة الصحيحة:

٥

١- تتسبب البراكين في :

أ) تعرية الصخور. **ب) قتل المخلوقات الحية.** ج) حدوث الجفاف.

٢- أي مما يأتي يضر البيئة التي نعيش فيها ؟

أ) التدوير. **ب) رمي النفايات.** ج) زراعة الأشجار.

٣- يعني استهلاك أقل كمية من الشيء

أ) الترشيد. ب) التدوير. ج) التلوث.

٤- أي العمليات الآتية تعد من تغيرات الأرض الفجائية ؟

أ) انفجار البركان. ب) التجوية. ج) التعرية.

٥- يدفن نفسه في الطين عند حدوث الجفاف

أ) الفيل. ب) العصفور. **ج) الضفدع.**

يتبع >>

المملكة العربية السعودية.
وزارة التعليم.
إدارة تعليم .....
مكتب تعليم .....
مدرسة .....

بسم الله الرحمن الرحيم



الاسم :	٢٠

السؤال الأول:

أ - نختار الإجابة الصحيحة لكل فقرة من الفقرات التالية:

١	تسمى الصهارة عندما تصل الى سطح الأرض :		
	لابة	صخور	ماء
٢	آثار أو بقايا مخلوقات حية عاشت في الماضي :		
	البراكين	الأحفورة	الجبال
٣	من الآثار الأحفورية :		
	آثار المياه	آثار الرياح	آثار الأقدام
٤	تتسبب البراكين في :		
	قتل المخلوقات الحية	الجفاف	التعرية
٥	تربة تحتفظ بالكثير من الماء :		
	طفلية	الرملية	الطينية
٦	من عوامل التجوية :		
	المياه الجارية	البكتيريا	الانسان
٧	مادة يتم حرقها للحصول على الطاقة :		
	الماء	الشمس	الوقود

ب. نكتب طبقات التربة على الرسم التالي :

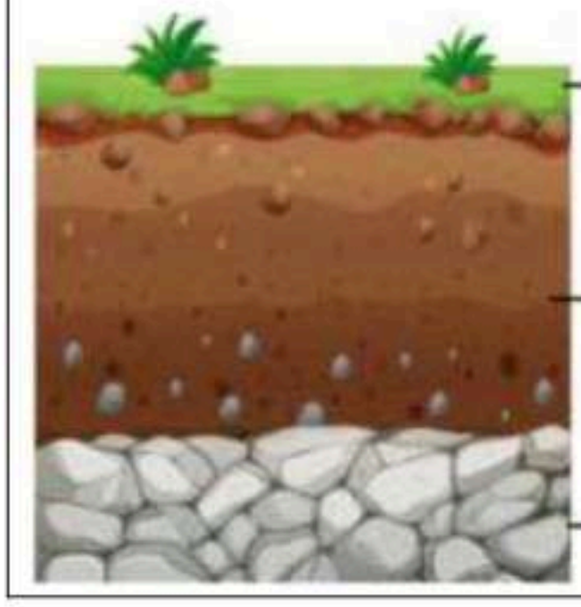

.....

.....

.....

السؤال الثاني :

أ - نكمل الجدول التالي حسب المطلوب :

(النفط – الرياح – الماء – الفحم الحجري- الشمس – الغاز الطبيعي)

موارد طاقة متجددة	موارد طاقة غير متجددة
.....	.....
.....	.....
.....	.....

ب . نحدد كلمة صح أو خطأ لكل فقرة من الفقرات الآتية:

١	الزلزال فتحة في القشرة الأرضية تخرج منها الصهارة.	◯ صح	◯ خطأ
٢	تحتوي التربة السطحية على معظم المعادن والدبال	◯ صح	◯ خطأ
٣	القالب تجويف فارغ من الصخر له شكل محدد	◯ صح	◯ خطأ
٤	الطاقة التي نحصل عليها من الشمس تسمى الطاقة الشمسية .	◯ صح	◯ خطأ
٥	التربة الغنية بالدبال يكون لونها غامق أو أسود	◯ صح	◯ خطأ
٦	التعرية والتجوية عمليتان تعمل معا بسرعة	◯ صح	◯ خطأ
٧	تختلف التربة في حجم حبيباتها والوانها	◯ صح	◯ خطأ

انتهت الأسئلة ,,,,

سكره الشمري

المملكة العربية السعودية.
وزارة التعليم.
إدارة تعليم .....
مكتب تعليم .....
مدرسة .....

بسم الله الرحمن الرحيم

علوم الصف الثالث

نموذج الإجابة

٢٠	

السؤال الأول:

أ - نختار الإجابة الصحيحة لكل فقرة من الفقرات التالية:

١	تسمى الصهارة عندما تصل الى سطح الأرض :		
	لابة	صخور	ماء
٢	آثار أو بقايا مخلوقات حية عاشت في الماضي :		
	البراكين	الأحفورة	الجبال
٣	من الآثار الأحفورية :		
	آثار المياه	آثار الرياح	آثار الأقدام
٤	تتسبب البراكين في :		
	قتل المخلوقات الحية	الجفاف	التعرية
٥	تربة تحتفظ بالكثير من الماء :		
	طفلية	الرملية	الطينية
٦	من عوامل التجوية :		
	المياه الجارية	البكتيريا	الانسان
٧	مادة يتم حرقها للحصول على الطاقة :		
	الماء	الشمس	الوقود

ب. نكتب طبقات التربة على الرسم التالي :

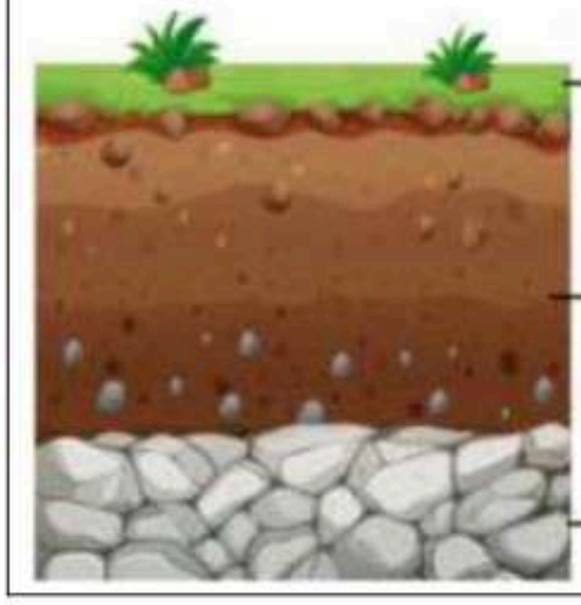

المملكة العربية السعودية
وزارة التعليم
إدارة تعليم منطقة .....
مدرسة .....

الصف: ثالث ابتدائي
اليوم:
التاريخ: / / ١٤٤٦هـ

٢٠

اسم الطالبة: .....

اختار الإجابة الصحيحة:

١-فتحة في القشرة الأرضية تندفع منها الصهارة:							
أ	الزلازل	ب	البراكين	ج	الإعصار	د	الفيضان
٢- يشكل مخلوط المعادن وفتات الصخور:							
أ	الرياح	ب	التربة	ج	التجوية	د	الزلزال
٣- بقايا مخلوقات حية عاشت في الماضي البعيد:							
أ	الماء	ب	الوقود	ج	الاحفورة	د	البركان
٤- طبقة التربة التي تحتوي على بقايا المخلوقات المتحللة:							
أ	السطحية	ب	تحت السطحية	ج	الصخرية	د	تحت الصخرية
٥- لا يمثل احفورة:							
أ		ب		ج		د	

اضع علامة ✓ او ✗ امام العبارات التالية:

	١- التربة الغنية بالدبال يكون لونها أبيض.
	٢- يحتاج الوقود الأحفوري إلى ملايين السنين لكي يتكون.
	٣- التربة مورد طبيعي.
	٤- تسبب البراكين في نمو النباتات بشكل كبير.
	٥- الطبعات نوع من الاحافير.



اضع المصطلحات التالية في مكانها المناسب:

التعرية　　الوقود　　التجوية

١-	.....	مادة يتم حرقها للحصول على الطاقة.
٢-	.....	تفتت الصخور الى أجزاء اصغر.
٣-	.....	نقل الفتات الصخري من مكان الى مكان اخر.



اصنف الموارد التالية حسب الجدول:

(النفط – الماء – الرياح – الفحم الحجري – الشمس – الغاز الطبيعي)

موارد طاقة متجددة	موارد طاقة غير متجددة



اضع الكلمات التالية في مكانها المناسب:

(الطبقة الصخرية – الطبقة السطحية – الطبقة تحت السطحية)



..... ←

..... ←

..... ←



ما الذي يسبب الزلازل:

السبب	النتيجة
.....	الزلازل 

انتهت الأسئلة

دعواتي لكن بالتوفيق

المعلمة: أمل الزهراني

المملكة العربية ال...عودية
وزارة ال...
إدارة تعليم م...
مدرسة ...

ثالث ابتدائي

/ / ١٤٤٦هـ

نموذج الإجابة

٢٠

اسم الطالبة: .....



اختار الإجابة الصحيحة:

١-فتحة في القشرة الأرضية تندفع منها الصهارة:							
أ	الزلازل	ب	البراكين	ج	الإعصار	د	الفيضان
٢- يشكل مخلوط المعادن وفتات الصخور:							
أ	الرياح	ب	التربة	ج	التجوية	د	الزلزال
٣- بقايا مخلوقات حية عاشت في الماضي البعيد:							
أ	الماء	ب	الوقود	ج	الاحفورة	د	البركان
٤- طبقة التربة التي تحتوي على بقايا المخلوقات المتحللة:							
أ	السطحية	ب	تحت السطحية	ج	الصخرية	د	تحت الصخرية
٥- لا يمثل احفورة:							
أ		ب		ج		د	



اضع علامة ✓ او ✗ امام العبارات التالية:

✗	١- التربة الغنية بالدبال يكون لونها أبيض.
✓	٢- يحتاج الوقود الأحفوري إلى ملايين السنين لكي يتكون.
✓	٣- التربة مورد طبيعي.
✗	٤- تسبب البراكين في نمو النباتات بشكل كبير.
✓	٥- الطبعات نوع من الاحافير.