بسم الله الرحمن الرحيم		
المملكة العربية السعودية		المادة: المهارات الحياتية والاسرية
وزارة التعليم		الصف: الثالث الابتدائي 1447
إدارة تعليم		الفصل الدراسي الأول
مدرسة		إختبار منتصف الفصل (الفترة)

20

اسم الطالبة : .....

السؤال الأول: أختار الإجابة الصحيحة لكل من العبارات التالية:

1- الوقوف والجلوس الصحيح يؤدي الى:	
اعتدال الجسم	ألم في الظهر
2- للمحافظة على سلامة الكتف لابد من حمل الحقيبة:	
على كتف واحد	على الكتفين
3- أتناول وجبة العشاء:	
مبكراً	قبل النوم مباشرة
4- أنام في سريري المريح على شقي:	
الأيسر	الأيمن
5- من العبادات التي تحتاج الوقوف والمشي:	
الطواف حول الكعبة	الصوم
6- إذا خرجت أمي من المنزل:	
ألعب في الشارع	أعتني بإخوتي
7- إذا طرق شخص غريب الباب أثناء وجود الام خارج المنزل:	
لا أفتح له الباب مهما حدث	أفتح له الباب
8- خرجت أم ليلى من المنزل لزيارة جدتها .. ماذا يجب على ليلى ؟:	
حل واجباتها	تعبث بالأدوات الخطيرة
9- ليس من الضروري تنفيذ تعليمات أمي عند غيابها:	
صح	خطأ
10- معرفة رقم جوال والدينا أمر ضروري عند غيابهما:	
صح	خطأ

السؤال الثاني: ضع علامة (√) أمام العبارة الصحيحة وعلامة (X) أمام العبارة الخاطئة:

1	ليس الحذاء المناسب لقدمك عند المشي يحافظ على سلامتها	( )
2	لا أخبر الغرباء عن غياب أمي	( )
3	لا يجب علينا تطبيق الوقوف الصحيح أثناء الصلاة	( )
4	تخرج الأم عادة إلى زيارة والديها وأقاربها	( )
5	بالوقوف الخاطئ يتجه الرأس للأسفل	( )

انتهت الأسئلة بالتوفيق

معلمة المادة /

بسم الله الرحمن الرحيم

المملكة العربية السعودية	رؤية VISION 2030	المادة: المهارات الحياتية والاسرية
وزارة التعليم		الصف: الثالث الابتدائي 1447
إدارة تعليم		الفصل الدراسي الأول
مدو		اختبار منتصف الفصل (الفترة)

نموذج الإجابة

.....

20

السؤال الأول: أختار الإجابة الصحيحة لكل من العبارات التالية:

1- الوقوف والجلوس الصحيح يؤدي الى:	
اعتدال الجسم	ألم في الظهر
2- للمحافظة على سلامة الكتف لابد من حمل الحقيبة:	
على كتف واحد	على الكتفين
3- أتناول وجبة العشاء:	
مبكراً	قبل النوم مباشرة
4- أنام في سريري المريح على شقي:	
الأيسر	الأيمن
5- من العبادات التي تحتاج الوقوف والمشي:	
الطواف حول الكعبة	الصوم
6- إذا خرجت أمي من المنزل:	
ألعب في الشارع	أعتني بإخوتي
7- إذا طرق شخص غريب الباب أثناء وجود الام خارج المنزل:	
لا أفتح له الباب مهما حدث	أفتح له الباب
8- خرجت أم ليلى من المنزل لزيارة جدتها .. ماذا يجب على ليلى ؟:	
حل واجباتها	تعبث بالأدوات الخطيرة
9- ليس من الضروري تنفيذ تعليمات أمي عند غيابها:	
صح	خطا
10- معرفة رقم جوال والدينا أمر ضروري عند غيابهما:	
صح	خطأ

السؤال الثاني: ضع علامة (√) أمام العبارة الصحيحة وعلامة (X) أمام العبارة الخاطئة:

1	لبس الحذاء المناسب لقدمك عند المشي يحافظ على سلامتها	(✓)
2	لا أخبر الغرباء عن غياب أمي	(✓)
3	لا يجب علينا تطبيق الوقوف الصحيح أثناء الصلاة	(✗)
4	تخرج الأم عادة إلى زيارة والديها وأقاربها	(✓)
5	بالوقوف الخاطئ يتجه الرأس للأسفل	(✓)

انتهت الأسئلة بالتوفيق

معلمة المادة /

٢٠

اختبار (الفترة الأولى) لمادة المهارات الحياتية والأسرية للعام الدراسي ١٤٤٧هـ

اسم الطالب: ..... الصف: الثالث الابتدائي (بنين)

٥

السؤال الأول:

أضع علامة صح (✓) أمام الإجابة الصحيحة وعلامة خطأ (X) أمام العبارة الخاطئة:

١- الله هو الشافي، وإنما الدواء سبب للشفاء. ( )

٢- ليس للدواء وقت محدد. ( )

٣- لبس الحذاء المناسب لقدمك عند المشي لا يحافظ على سلامتها. ( )

٤- اتباع مدلولات الرموز الإرشادية يدل على الوعي. ( )

٥-الوقوف الخطأ يؤثر على سلامة ظهري. ( )

٦-المضاد الحيوي بعد إضافة الماء إليه يوضع في الدولاب. ( )

٥

السؤال الثاني:

أُرتِب خطوات المشي الصحيح:

( ) أمشي باعتدال وأحرك يديَّ بخفة.

( ) أحافظ على قامتي أثناء المشي.

( ) أحمل حقيبتي على ظهري وأحافظ على توازنها.

( ) أرفع رأسي وأنظر إلى الأمام.

( ) أحرص على سلامة خطواتي واستقامتها.

السؤال الثالث :

٥

أَخْتَارُ المعنى الصحيح لكل رمز :



أ-ممنوع التدخين	ب-إعادة تدوير	ج-سلة مهملات	د-إشارة ضوئية



أ-ممنوع استعمال المنبه	ب-استخدام طفاية حريق	ج-غرفة غيار أطفال	د-عبور مشاة



أ-منطقة أعمال حفر	ب-منطقة حافلات	ج-طريق غير مستوي	د-إعادة تدوير



أ-مدرسة	ب-مسجد	ج-مطعم	د-منزل



أ-محطة وقود	ب-ممنوع التدخين	ج-سلة مهملات	د-إشارة ضوئية

السؤال الرابع :

٣

أَصِلُ كل رمز من الرموز الإرشادية بما يناسبه :

	لوحة إلزامية
	لوحة تحذيرية
	لوحة إرشادية

السؤال الخامس :

٢



إلى ماذا يشير هذا الرمز ؟

.....

.....

.....

انتهت الأسئلة

أرجو لكَ كُل التوفيق والنجاح

معلمة المادة : نايفة الثقفي

نموذج الإجابة

٢٠

اختبار (الفترة الأولى) لمادة المهارات الحياتية والأسرية للعام الدراسي ١٤٤٧هـ

اسم الطالب: ..... الصف: الثالث الابتدائي (بنين)

السؤال الأول:

٥

أضع علامة صح (✓) أمام الإجابة الصحيحة وعلامة خطأ (X) أمام العبارة الخاطئة:

١- الله هو الشافي، وإنما الدواء سبب للشفاء. (✓)

٢- ليس للدواء وقت محدد. (X)

٣- لبس الحذاء المناسب لقدمك عند المشي لا يحافظ على سلامتها. (X)

٤- اتباع مدلولات الرموز الإرشادية يدل على الوعي. (✓)

٥-الوقوف الخطأ يؤثر على سلامة ظهري. (✓)

٦-المضاد الحيوي بعد إضافة الماء إليه يوضع في الدولاب. (X)

السؤال الثاني:

٥

أُرتِب خطوات المشي الصحيح:

(٣) أمشي باعتدال وأحرك يديَّ بخفة.

(١) أحافظ على قامتي أثناء المشي.

(٥) أحمل حقيبتي على ظهري وأحافظ على توازنها.

(٢) أرفع رأسي وأنظر إلى الأمام.

(٤) أحرص على سلامة خطواتي واستقامتها.

السؤال الثالث :

٥

أَخْتَارُ المعنى الصحيح لكل رمز :



أ-ممنوع التدخين	ب-إعادة تدوير	ج-سلة مهملات	د-إشارة ضوئية



أ-ممنوع استعمال المنبه	ب-استخدام طفاية حريق	ج-غرفة غيار أطفال	د-عبور مشاة



أ-منطقة أعمال حفر	ب-منطقة حافلات	ج-طريق غير مستوي	د-إعادة تدوير



أ-مدرسة	ب-مسجد	ج-مطعم	د-منزل



أ-محطة وقود	ب-ممنوع التدخين	ج-سلة مهملات	د-إشارة ضوئية

السؤال الرابع :

٣

أَصِلُ كل رمز من الرموز الإرشادية بما يناسبه :

لوحة إلزامية	
لوحة تحذيرية	
لوحة إرشادية	

السؤال الخامس :

٢



إلى ماذا يشير هذا الرمز ؟

.....

شعار المملكة العربية السعودية

والرمز يعني القوة والرخاء والنماء.

.....

انتهت الأسئلة

أرجو لكَ كُل التوفيق والنجاح

معلمة المادة : نايفة الثقفي

المملكة العربية السعودية
وزارة التعليم
ادارة التعليم
مدرسة

وزارة التعليم
Ministry of Education

الاسم .....

اختبار منتصف الفصل الدراسي الأول لمادة المهارات الحياتية والاسرية للصف الثالث الابتدائي للعام الدراسي ١٤٤٧هـ

السؤال الأول

صلي كل صورة بالدلالة المناسبة لها :






ممنوع استعمال المنبه	ممنوع التدخين	أعمال الحفر	غرفة غيار الأطفال

أَصِلُ كُلَّ شَكْلٍ مِنْ أَشْكالِ الأَدْوِيةِ بِاسْمِهِ فِيما يَأْتي:



شَراب	إبْرة	حُبُوب

السـؤال الثاني : أختار الإجابة الصحيحة :

١/ الرموز الإرشادية لهـا (ثلاثة أشكال – خمسة اشكال)

٢ / من الأثـار المترتبة على تجاهل الرموز الإرشادية (حدوث الحوادث _ لا يتعرض لشيء)

٣ / على المريض عند استعمال الدواء اتباع : (وصفة الطبيب – وصفة المعالج الشعبي)

٤ / فيه شفاء للناس هو (العـسل – الشوكلاته)

٥ / اتناول الـدواء بـ (مساعدة الكبـار – دواء الاخرين)

نموذج الإجابة

٢٠

المملكة
وزارة
ادارة
مدرس

.....

Ministry of Education

اختبار منتصف الفصل الدراسي الأول لمادة المهارات الحياتية والاسرية للصف الثالث الابتدائي للعام الدراسي ١٤٤٦ هـ

السؤال الأول

صلي كل صورة بالدلالة المناسبة لها :



ممنوع استعمال المنبه	ممنوع التدخين	أعمال الحفر	غرفة غيار الأطفال

أَصِلُ كُلَّ شَكْلٍ مِنْ أَشْكالِ الأَدْوِيةِ بِاسْمِهِ فِيما يَأْتي:

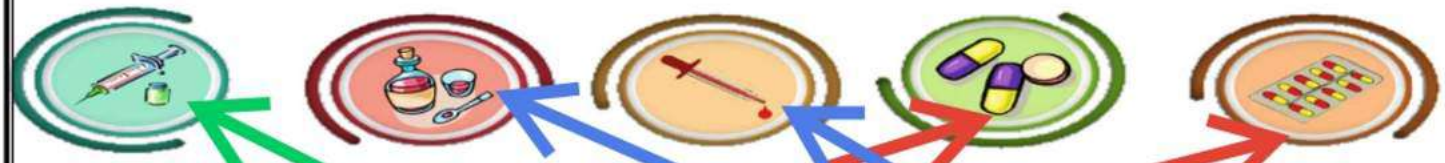

شَراب	إبْرة	حُبُوب

السـؤال الثاني : أختار الإجابة الصحيحة :

١/ الرموز الإرشادية لهـا (ثلاثة أشكال – خمسة اشكال)

٢ / من الأثـار المترتبة على تجاهل الرموز الإرشادية (حدوث الحوادث _ لا يتعرض لشيء)

٣ / على المريض عند استعمال الدواء اتباع : (وصفة الطبيب – وصفة المعالج الشعبي)

٤ / فيه شفاء للناس هو (العسل – الشوكلاته)

٥ / اتناول الـدواء بـ (مساعدة الكبـار – دواء الاخرين)

المملكة العربية السعودية
وزارة التعليم
إدارة التعليم .....
ابتدائية .....

وزارة التعليم
Ministry of Education

المادة : المهارات الحياتية
التاريخ : / / ١٤٤٧هـ
اليوم :
الصف : الثالث

اختبار الفترة الأولى مادة (المهارات الحياتية) للعام الدراسي ١٤٤٧هـ

اسم الطالب: .....

السؤال الأول: أختار المعنى الصحيح لكل رمز :



١- ممنوع الوقوف
٢- أمامك دوار
٣- ممنوع استعمال المنبه



١- غرفة غيار أطفال
٢- موقف ذوي الاحتياجات الخاصة
٣- سلم كهربائي



١- خطر الانزلاق
٢- ممنوع التدخين
٣- مدرسة



١- دورة مياه
٢- مطفأة حريق
٣- أعمال حفر

السؤال الثاني: أضع رقم الرمز في المكان المناسب له .



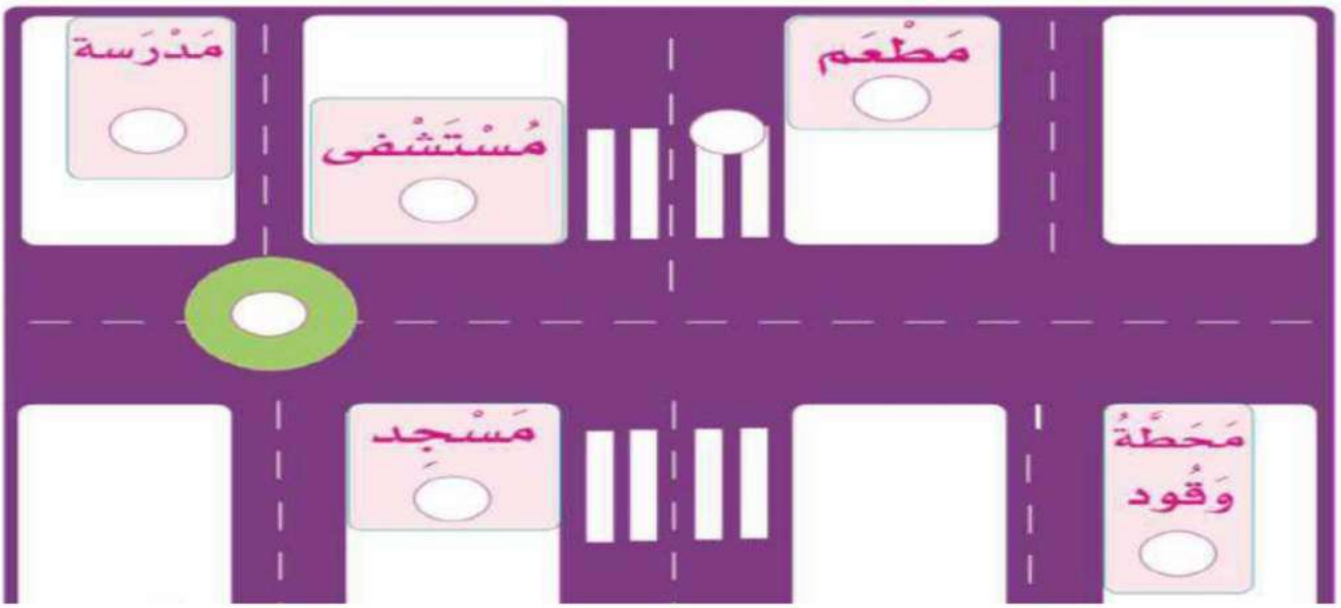

السؤال الثالث: توضع الرموز الإرشادية للدلالة على وجود:



.....



.....



.....



.....



.....

انتهت الأسئلة

أ. فـواز الظفيري

نموذج الإجابة

المملكة العربية
وزارة التعليم
إدارة التعليم ....
ابتدائية .....

مادة : المهارات الحياتية
تاريخ : / / ١٤٤٧هـ
اليوم :
الصف : الثالث

اختبار الفترة الأولى مادة (المهارات الحياتية) للعام الدراسي ١٤٤٧هـ

اسم الطالب: .....

السؤال الأول: أختار المعنى الصحيح لكل رمز :



١- ممنوع الوقوف
٢- أمامك دوار
٣- ممنوع استعمال المنبه



١- غرفة غيار أطفال
٢- موقف ذوي الاحتياجات الخاصة
٣- سلم كهربائي



١- خطر الانزلاق
٢- ممنوع التدخين
٣- مدرسة



١- دورة مياه
٢- مطفأة حريق
٣- أعمال حفر

السؤال الثاني: أضع رقم الرمز في المكان المناسب له .

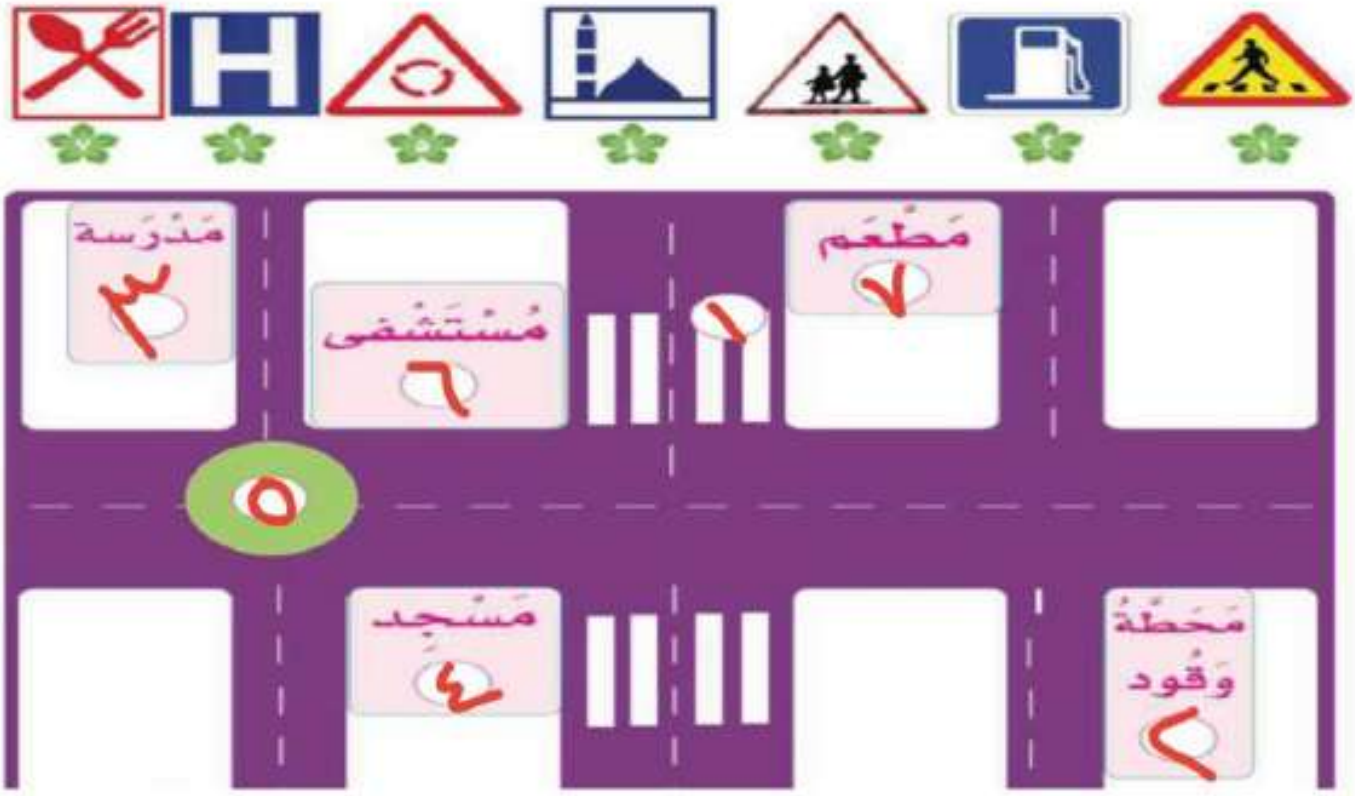

السؤال الثالث: توضع الرموز الإرشادية للدلالة على وجود:



طفاية حريق.....



محطة حافلات .....



طريق غير مستوي.....



الهاتف .....



إعادة التدوير .....

انتهت الأسئلة

أ. فـواز الظفيري

المملكة العربية السعودية
وزارة التعليم
ادارة تعليم .....
مدرسة.....

اختبار الفترة	الأولى	الفصل الدراسي	الأول ١٤٤٧هـ	الاسم		الدرجة	
المادة	المهارات الحياتية والأسرية	الصف	الثالث	المعلمة		التوقيع	

السؤال الأول: ضعي علامة (√) أمام العبارة الصحيحة وعلامة (X) أما العبارة الخاطئة :

	العبارة	الإجابة
١	الرموز الإشادية موحدة في جميع أنحاء العالم.	
٢	من أشكال الأدوية : (شراب - إبرة - حبوب) .	
٣	نشرب الدواء بإشراف الكبار.	
٤	يجب التخلص من الكمامة ذات الاستخدام الواحد بالشكل الصحيح بعد استعمالها	
٥	يجب التخلص من الإبرة بالشكل الصحيح بعد استعمالها	
٦	يمشي على أربعة ثم على اثنين ثم على ثلاث هو الإنسان	
٧	مفهوم المشي هو الانتقال من مكان إلى مكان بإرادة.	
٨	الدواء ليس له مقدار معين ولا وقت محدد يجب الإلتزام به	
٩	لا نستعمل الأدوية عندما نمرض بشدة.	
١٠	الرمز الإرشادي الذي يحوي رسم شوكة وملعقة يدل على مدرسة	

السؤال الثاني: اختاري الاجابة الصحيحة:

١	الرموز الإرشادية ذات الشكل المثلث					
	أ	تحذيرية	ب	إلزامية	ج	إرشادية
٢	السلامة هي					
	أ	البرء	ب	الصحة	ج	الدواء
٣	الدواء هو:					
	أ	مايتداوى به ويعالج	ب	بدون مقدار معين	ج	بدون وصفة طبية
٤	على المريض عند استعمال الدواء اتباع :					
	أ	وصفة الطبيب	ب	وصفة الصيدلاني	ج	وصفة المعالج الشعبي
٥	اختر ما ينبغي التخلص منه بعد استخدامه؟					
	أ	اللاصق الطبي	ب	جهاز قياس الضغط	ج	سماعة الطبيب
٦	سبب اختيار حذاء مناسب عند المشي.....					
	أ	سلامتها	ب	ليس له تأثير	ج	يسبب الألم للرجل
٧	للحصول على نوم عميق لابد من :					
	أ	تناول وجبة العشاء مبكراً	ب	تناول وجبة العشاء متأخراً	ج	عدم تناول وجبة العشاء
٨	مما يساعد على نوم هادئ ومريح تناول كوب من :					
	أ	الحليب الدافئ	ب	الشاي المثلج	ج	القهوة الساخنة
٩	النوم الهادئ العميق :					
	أ	يريح الجسم ويجدد نشاطه	ب	يؤذي الجسم ويقلل نشاطه	ج	لا فائدة منه
١٠	الوقوف والجلوس الصحيحان يؤديان إلى :					
	أ	اعتدال الجسم	ب	ألم الظهر	ج	تسوس الأسنان

المملكة العربية
وزارة ال
ادارة تعلي
مدرسة...

نموذج الإجابة

اختبار الفترة	الأولى	الفصل الدراسي	الأول ١٤٤٧هـ	الاسم		الدرجة	
المادة	المهارات الحياتية والأسرية	الصف	الثالث	المعلمة		التوقيع	

السؤال الأول: ضعي علامة (√) أمام العبارة الصحيحة وعلامة (X) أما العبارة الخاطئة :

	العبارة	الإجابة
١	الرموز الإشادية موحدة في جميع أنحاء العالم.	√
٢	من أشكال الأدوية : (شراب - إبرة - حبوب) .	√
٣	نشرب الدواء بإشراف الكبار.	√
٤	يجب التخلص من الكمامة ذات الاستخدام الواحد بالشكل الصحيح بعد استعمالها	√
٥	يجب التخلص من الإبرة بالشكل الصحيح بعد استعمالها	√
٦	يمشي على أربعة ثم على اثنين ثم على ثلاث هو الإنسان	√
٧	مفهوم المشي هو الانتقال من مكان إلى مكان بإرادة.	√
٨	الدواء ليس له مقدار معين ولا وقت محدد يجب الإلتزام به	×
٩	لا نستعمل الأدوية عندما نمرض بشدة.	×
١٠	الرمز الإرشادي الذي يحوي رسم شوكة وملعقة يدل على مدرسة	×

السؤال الثاني: اختاري الاجابة الصحيحة:

١	الرموز الإرشادية ذات الشكل المثلث					
	أ	تحذيرية	ب	إلزامية	ج	إرشادية
٢	السلامة هي					
	أ	البرء	ب	الصحة	ج	الدواء
٣	الدواء هو:					
	أ	مايتداوى به ويعالج	ب	بدون مقدار معين	ج	بدون وصفة طبية
٤	على المريض عند استعمال الدواء اتباع :					
	أ	وصفة الطبيب	ب	وصفة الصيدلاني	ج	وصفة المعالج الشعبي
٥	اختر ما ينبغي التخلص منه بعد استخدامه؟					
	أ	اللاصق الطبي	ب	جهاز قياس الضغط	ج	سماعة الطبيب
٦	سبب اختيار حذاء مناسب عند المشي.....					
	أ	سلامتها	ب	ليس له تأثير	ج	يسبب الألم للرجل
٧	للحصول على نوم عميق لابد من :					
	أ	تناول وجبة العشاء مبكراً	ب	تناول وجبة العشاء متأخراً	ج	عدم تناول وجبة العشاء
٨	مما يساعد على نوم هادئ ومريح تناول كوب من :					
	أ	الحليب الدافئ	ب	الشاي المثلج	ج	القهوة الساخنة
٩	النوم الهادئ العميق :					
	أ	يريح الجسم ويجدد نشاطه	ب	يؤذي الجسم ويقلل نشاطه	ج	لا فائدة منه
١٠	الوقوف والجلوس الصحيحان يؤديان إلى :					
	أ	اعتدال الجسم	ب	ألم الظهر	ج	تسوس الأسنان

اختبار فتري

إدارة تعليم: تبوك	**مكتب تعليم:** .....
المدرسة: المعرفه للطفوله المبكره	**المادة:** المهارات الحياتية والأسرية
الصف: ثالث	**اسم الطالب:** .....

السؤال الأول: اختر الإجابة الصحيحة

1. أي من الأشكال التالية يستخدم عادةً للتحذير من خطر قادم على الطريق؟

أ- الدائرة الزرقاء	**ب-** المربع الأخضر	**ج-** المثلث ذو الإطار الأحمر	**د-** المستطيل الأبيض

2. الرمز الذي يحتوي على صورة سيجارة وعليها خط أحمر يعني:

أ- مكان مخصص للتدخين	**ب-** اشترِ السجائر من هنا	**ج-** التدخين مسموح للجميع	**د-** ممنوع التدخين

3. ماذا يمثل رمز الحرف (H) الموجود داخل مربع أزرق؟

أ- فندق (Hotel)	**ب-** مستشفى (Hospital)	**ج-** حديقة (Hadeeqah)	**د-** موقف (Holding)

4. عندما ترى رمزًا لطفل يركض داخل مثلث، فهذا يعني أنك تقترب من:

أ- ملعب أطفال	**ب-** مكتبة عامة	**ج-** منطقة مدرسة أو مكان يكثر فيه الأطفال	**د-** مستشفى للأطفال

5. من هو الشخص المسؤول عن فحص المريض وكتابة الوصفة الطبية؟

أ- الممرض	**ب-** الصيدلاني	**ج-** الطبيب	**د-** الأب

السؤال الثاني: ضع علامة (✓) أو (x)

6. اتباع الرموز الإرشادية يساعد على حماية سلامتنا وسلامة الآخرين. (.....)

7. جميع الرموز الإرشادية في العالم لها نفس الشكل واللون. (.....)

8. تجاهل رمز "أرضية زلقة" في ممر مبلل لا يشكل أي خطر. (.....)

9. السيفان في شعار المملكة العربية السعودية يرمزان إلى القوة والعدل. (.....)

10. يمكن شراء أي دواء من الصيدلية دون الحاجة لوصفة من الطبيب. (.....)

11. من الآمن استخدام أدوية الآخرين إذا كانت لديهم نفس أعراض المرض. (.....)

12. يجب الالتزام بالكمية والوقت المحددين في الوصفة الطبية بدقة. (.....)

13. الجلوس بظهر منحني أمام الأجهزة الإلكترونية لا يسبب أي ضرر. (.....)

14. من العادات الصحية النوم على الشق الأيمن. (.....)

15. الوقوف والمشي الصحيحان يؤديان إلى اعتدال العمود الفقري. (.....)

انتهت الأسئلة ... بالتوفيق