

بنك الأسئلة لمادة

العلوم

الصف الثاني الابتدائي

اسمي: ----------

فصلي :٢/ -----

العام الدراسي: -----١٤ هـ

رتبي خطوات الطريقة العلمية التي يستخدمها العلماء بالتسلسل :

أستنتج	أسأل	أضع خطة	ألاحظ
.....	.....	.....	.....
أسجل النتائج	أتبع الخطة	أتوقع	أعيد التجربة
.....	.....	.....	.....

لوني الدوائر التي تفسر أن النباتات مخلوقات حية:

تنمو

تتحدث

تتكاثر

تتحرك من مكانها

تتنفس

أضع علامة (✓)أمام العبارة الصحيحة وعلامة (✗) أمام العبارة الخاطئة :

١ـ تحتاج النباتات لضوء الشمس في النمو ( )

٢ـ يسمح الساق بانتقال الماء والغذاء من خلاله إلى باقي أجزاء النبتة ( )

٣ـ تساعد الأوراق على صنع الغذاء ( )

٤ـ تقوم الجذور بتثبيت النبتة في التربة ( )

٥ـ البذرة هي جزء النبات الذي ينمو ويصير نباتًا جديدًا ( )

٦ـ الأوراق هي المسؤولة عن صنع الغذاء بنفسه ( )

٧ـ الحشرات تعتبر من فصيلة اللافقاريات ( )

٨ـ النباتات مخلوقات حية ( )

اكملي الفراغ بالعبارات المناسبة :

١- يحتاج النبات لكي ينمو ويتغير

إلى.....،.....،.....

٢-يطلق النبات عند صنع الغذاء غاز.....

٣-تقوم .....بتثبيت النبات في التربة

٤-تنمو .....وتصير نباتا جديدا

أكملي العبارات التالية بالكلمات المناسبة :

الزهرة ـ حبوب اللقاح ـ البذرة

١ـ تنتج الزهرة مسحوق يسمى.....يساعد على إنتاج البذور.

٢- .....هي التي تكون البذور والثمار في النبات .

٣- .....هي جزء النبات الذي ينمو ويصير نباتا جديدا .

اكتبي الرقم المناسب من العمود (أ) أمام الإجابة الصحيحة من العمود (ب):

	أ
١	الرياح
٢	الثمرة
٣	البذرة

	ب
	تحمي البذرة التي بداخلها
	لها أغلفة تحميها من الجفاف
	تساعد على نقل حبوب اللقاح

أصل كل صورة بما يناسبها :









برمئيات

أسماك

طيور

زواحف

حشرات

أرتب دورة حياة نبات الفاصوليا من خلال الصور









أرتب مراحل دورة حياة الضفدع بالتسلسل خلال الصور :







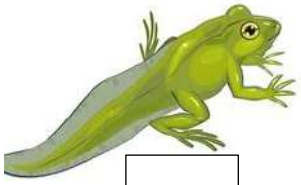

أضع علامة صح في المربع المناسب :

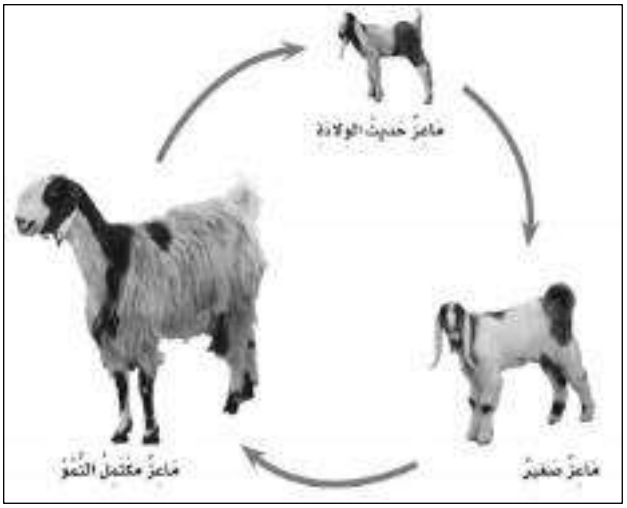

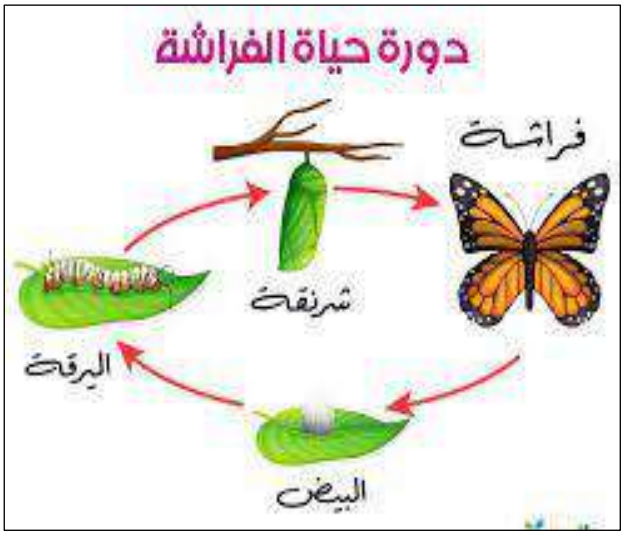

*الصغير يشبه آبائه ( )	*الصغير يشبه آبائه ( )
*يخرج الصغير من البيضة ( )	*يخرج الصغير من البيضة ( )
*يتحول شكل الصغير خلال دورة حياته( )	*يتحول شكل الصغير خلال دورة حياته( )
*يعتبر الحيوان من الفقاريات ( )	*يعتبر الحيوان من الفقاريات ( )

أكمل العبارات بكلمات مناسبة من القائمة :

غذاء ــ ضوء الشمس ـ للاختباء ـ حيوانات

١ـ في الموطن تجد الحيوانات ماتحتاج إليه من ماء و .....

٢ـ تحتاج النباتات في مواطنها إلى .....والماء

٣ـ تتغذى بعض الحيوانات على.....أخرى

٤ـ تستخدم الحيوانات موطنها.....والنوم

ضعي إشارة (×) حسب الصفة المناسبة للحيوانات التالية

الحيوان	تلد	تبيض	لها عمود فقري	ليس لها عمود فقري
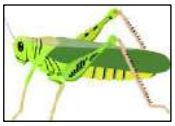				
				
				
				
				

ضعي علامة صح أمام المدلول المناسب:

	أمطارها يومية	تعيش فيها الدببة السوداء والطيور	تتوفر فيها الأمطار	أشجارها عالية
الغابة				
الغابة المطيرة				

أرتب السلسة الغذائية من خلال الصور :








حددي الفريسة والمفترس في السلسلة الغذائية التالية :

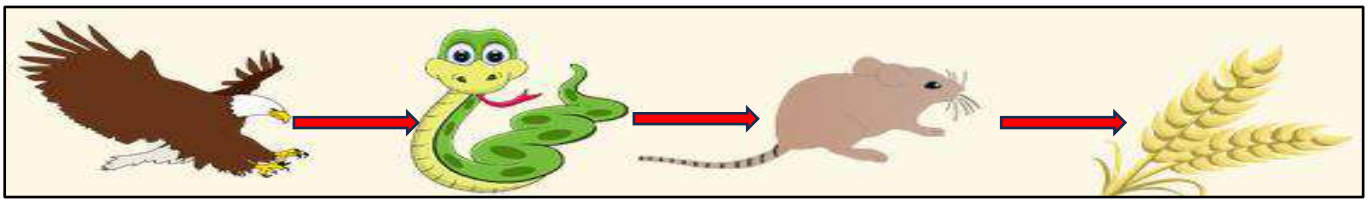

الفأر	○ فريسة ○ مفترس
المفترس	○ فريسة ○ مفترس

اختاري الإجابة الصحيحة:

١- موطن حار جاف ..... (الغابة – الصحراء الحارة)

٢- نباتات..... صغيرة وقصيرة قريبة من سطح الأرض

(الصحراء- المنطقة القطبية)

أصل بين أسم البيئة والصورة المناسبة لها :









الغابة الممطرة
الصحراء الحارة
الغابة
الصحراء الباردة

أكتب المصطلح بجوار التعريف المناسب :

الجبل – الوادي – التلال – السهل

١) منطقة منبسطة وواسعة .....

٢) منطقة مرتفعة جدا من اليابسة .....

٣) مناطق مرتفعة ولكن أقل ارتفاع من الجبال .....

٤) أرض منخفضة من الجبال والتلال.....

صلي بين الكلمة من (أ) والصورة المناسبة من (ب) فيما يلي :

(أ)	(ب)
الجبل	
الوادي	
السهول	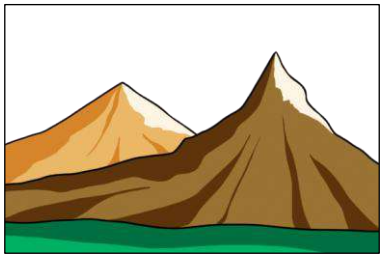

أكملي العبارات الآتية بالكلمات المناسبة :

العذب – الأمطار – المحيط – الماء - الأنهار

١/ لا تستطيع المخلوقات الحية العيش بدون .....

٢/ الماء ..... هو الماء غير المالح ويوجد في البحيرات و .....

٣/ .....تجمع كبير وعميق من الماء المالح

٤/ من مصادر الماء العذب ماء.....

ضعي علامة صح أو خطأ أمام العبارات التالية :

١/ تغطي المحيطات ثلاث أربع الكرة الأرضية ( )

٢/ تستطيع الحيوانات الشرب من ماء مالح. ( )

٣/ يمكن للأسماك أن تعيش بدون ماء. ( )

٤/ من مصادر الماء العذب مياه الأبار ( )

ضعي علامة صح أو خطأ أمام الصور التالية :













أصل كل نوع من أنواع التربة بصورته :

التربة طينية	التربة الرملية	التربة زراعية

