المملكة العربية السعودية وزارة التعليم

المادة : اجتماعيات
الزمن : 45 دقيقة الفصل الدراسي : الاول

30

اختبار مادة اجتماعيات لصف الرابع الابتدائي الفترة الثانية لعام 1447 هـ

اسم الطالبة: الصف :

السؤال الأول : أ- إختاري الإجابة الصحيحة في كلا مما يأتي								11 درجات	
1	يقــع وطنــي المملكــة العربيــة الســعودية فــي أقصــى الجنــوب الغربــي من قارة ،								
أ	آســيا	ب	إفريقيــا	ج	أوروبــا	د	امريكا		
2	من الجهات الفرعية:								
أ	الشرق	ب	الشمال.	ج	الجنوب.	د	الشمال الغربي		
3	يمكـــــن اســتعمال خرائط ..... لمعرفة موقـــع المكان الذي نعيش فيه								
أ	جوجل	ب	المكان	ج	الطبيعة	د	لاشي مما ذكر		
4	انتقال الناس ونقل البضائع من مكان الى أخر								
أ	المكان	ب	الحركة	ج	الطبيعة	د	البيئة		
5	هــي المنطقــة التي يعيش فيها الانســان والحيوان والنبــات								
أ	الطبيعة	ب	الموقع	ج	البيئة	د	لاشي مما ذكر		
6	من طرق تعديل الانسان للبيئة:								
أ	الاطعمة	ب	ارتداء الملابس	ج	المدفأة	د	بناء المدن والجسور		
7	تقع محمية الامير محمد بن سلمان المَلكية في منطقتي								
أ	المدينة المنورة تبوك	ب	الحدود الشمالية	ج	مكة المكرمة	د	الشرقية		
8	انتاج غير مادي مثل								
أ	التعليم في المدارس	ب	الأطعمة	ج	الادوات	د	جميع ما ذكر		
9	المعلمون والأطباء وعمال البناء يعتبرون من الموارد								
أ	الحيوية	ب	الطبيعية	ج	البشرية	د	لاشي مما ذكر		
10	الشــخص الذي يستعمل ألسلَع والخدمات والاشــياء								
أ	المستهلك	ب	المنتج	ج	الطاقة	د	الموارد		
11	تعتمــد الــدول علــى التبادل..... بينها؛ من أجــل تنمية اقتصادهــا								
أ	الصناعي	ب	التجــاري	ج	الزراعي	د	الحيوي		

ب- ضعي علامة (√) امام العبارة الصحيحة وعلامة ح (×) أمام العبارة الخاطئة		10درجات
1	الجغرافي هو الذي يدرس مظاهر الارض وطبيعتها وسكانها	
2	رسم الانسان الخرائط واستعملها منذ الاف السنين	
3	العنوان الوطني هو رموز ّ وأسماء لمكان محدد تسهليسهل الوصل إلية	
4	في وطني أماكن كثيرة جميلة تستحق الزيارة، مثل جدة التاريخية	
5	من طرق استفادة الانسان من البيئة استخراج النفط والمعادن المختلفة من الا رض	
6	نحافظ على الحياة الفطرية؛ من أجل حماية بيئتنا والاستمتاع بطبيعتها	
7	الهضاب هي منطقة جغرافية تحددها الدولة تحتوي على نباتات طبيعية وحيوانات	
8	من السلع الضرورية الأطعمة والملابس	
9	انتاج مادي مثل التعليم في المدارس	
10	التبادل التجاري هو تبادل ألسلَع والخدمات بين الناس	

السؤال الثاني : أ- أختار المصطلح المناسب لكل مفهوم	5درجات

الادخار – النشاط الاقتصادي– التصحر– المكان - الجغرافيا

المصطلح		المفهوم
الجغرافيا		تخصيص جزء من المال وحفظه لتلبية الاحتياجات في المستقبل
المكان		هو تحول الاراضي الخصبة إلى أراض صحراوية مع مرور الزمن
التصحر		جزء محدد على الارض صغيراً كان أو كبيرا.
النشاط الاقتصادي		هو انتاج السلع والخدمات، وتوزيعها، وتبادلها، واستهلاكها
الادخار		هي كل ما يتعلق بالكرة الأرضية وتكوينا وما يحدث على سطحها

ب – أذكري ما يلي	4 درجات
❖ أنواع الطاقة	
❖ من طرق تكيف الانسان مع البيئة	

2

2

مع أطيب التمنيات لك بالتوفيق والنجاح الباهر .... معلمة المادة

المملكة العربية السعودية
وزارة التعليم

المادة : اجتماعيات
الزمن : ٤٥ دقيقة
الفصل الدراسي : الاول

نموذج الإجابة

اختبار مادة الدراسات الاجتماعية للصف الرابع الابتدائي الدور الأول لعام ١٤٤٧ هـ

٣٠

اسم الطالبة: الصف :

السؤال الأول : أ- إختاري الإجابة الصحيحة في كلا مما يأتي	١١ درجات	
١	يقع وطني المملكة العربية السعودية في أقصى الجنوب الغربي من قارة ،	
أ	آسيا	ب إفريقيا ج أوروبا د امريكا
٢	من الجهات الفرعية:	
أ	الشرق	ب الشمال. ج الجنوب. د الشمال الغربي
٣	يمكن استعمال خرائط ..... لمعرفة موقع المكان الذي نعيش فيه	
أ	جوجل	ب المكان ج الطبيعة د لاشي مما ذكر
٤	انتقال الناس ونقل البضائع من مكان الى أخر	
أ	المكان	ب الحركة ج الطبيعة د البيئة
٥	هي المنطقة التي يعيش فيها الانسان والحيوان والنبات	
أ	الطبيعة	ب الموقع ج البيئة د لاشي مما ذكر
٦	من طرق تعديل الانسان للبيئة:	
أ	الاطعمة	ب ارتداء الملابس ج المدفأة د بناء المدن والجسور
٧	تقع محمية الامير محمد بن سلمان المَلكية في منطقتي	
أ	المدينة المنورة تبوك	ب الحدود الشمالية ج مكة المكرمة د الشرقية
٨	انتاج غير مادي مثل	
أ	التعليم في المدارس	ب الأطعمة ج الادوات د جميع ما ذكر
٩	المعلمون والأطباء وعمال البناء يعتبرون من الموارد	
أ	الحيوية	ب الطبيعية ج البشرية د لاشي مما ذكر
١٠	الشخص الذي يستعمل السلَع والخدمات والاشياء	
أ	المستهلك	ب المنتج ج الطاقة د الموارد
١١	تعتمد الدول على التبادل..... بينها؛ من أجل تنمية اقتصادها	
أ	الصناعي	ب التجاري ج الزراعي د الحيوي

ب- ضعي علامة (√) امام العبارة الصحيحة وعلامة ح (×) أمام العبارة الخاطئة		١٠درجات	
١	الجغرافي هو الذي يدرس مظاهر الارض وطبيعتها وسكانها		√
٢	رسم الانسان الخرائط واستعملها منذ الاف السنين		√
٣	العنوان الوطني هو رموز ّ وأسماء لمكان محدد تسهليسهل الوصل إلية		√
٤	في وطني أماكن كثيرة جميلة تستحق الزيارة، مثل جدة التاريخية		√
٥	من طرق استفادة الانسان من البيئة استخراج النفط والمعادن المختلفة من الا رض		√
٦	نحافظ على الحياة الفطرية؛ من أجل حماية بيئتنا والاستمتاع بطبيعتها		√
٧	الهضاب هي منطقة جغرافية تحددها الدولة تحتوي على نباتات طبيعية وحيوانات		×
٨	من السلع الضرورية الأطعمة والملابس		√
٩	انتاج مادي مثل التعليم في المدارس		×
١٠	التبادل التجاري هو تبادل ّالسلَع والخدمات بين الناس		√

السؤال الثاني : أ- أختار المصطلح المناسب لكل مفهوم	٥ درجات	
الادخار – النشاط الاقتصادي– التصحر– المكان - الجغرافيا		
المصطلح	المفهوم	
الجغرافيا	هي كل ما يتعلق بالكرة الأرضية وتكوينا وما يحدث على سطحها	
المكان	جزء محدد على الارض صغيراً كان أو كبيرا.	
التصحر	هو تحول الاراضي الخصبة إلى أراض صحراوية مع مرور الزمن	
النشاط الاقتصادي	هو انتاج السلع والخدمات، وتوزيعها، وتبادلها، واستهلاكها	
الادخار	تخصيص جزء من المال وحفظه لتلبية الاحتياجات في المستقبل	

ب – أذكري ما يلي	٤ درجات	
❖ أنواع الطاقة ١ - طاقة الرياح والحرارة ٢-.الطاقة الشمسية والذرية		٢
❖ من طرق تكيف الانسان مع البيئة ١– بناء البيوت ٢-.ارتداء الملابس		٢

مع أطيب التمنيات لك بالتوفيق والنجاح الباهر ....

معلمة المادة /

المملكة العربية السعودية
وزارة التعليم
إدارة التعليم بمنطقة المدينة المنورة

المادة: اجتماعيات
الزمن:
الفصل الدراسي: الأول

30

اختبار مادة اجتماعيات لصف الرابع الابتدائي الفترة الثانية لعام ١٤٤٧هـ

اسم الطالب/ـة: **الصف:**

السؤال الأول: أ) اختار الإجابة الصحيحة في كلا مما يأتي								11 درجات	
1)	هي كل ما يتعلق بالكرة الأرضية وتكوينها								
أ	جغرافيا	ب	تاريخ	ج	اقتصاد	د	حكومة		
2)	من أسئلة الجغرافيا								
أ	أين هو ؟	ب	ماذا حدث ؟	ج	متى حدث ؟	د	من شارك في الحدث؟		
3)	انتقال الناس ونقل البضائع من مكان لأخر يسمى								
أ	حركة	ب	طبيعة	ج	بيئة	د	موقع		
4)	يقع وطني المملكة العربية السعودية في قارة								
أ	اسيا	ب	افريقيا	ج	اوروبا	د	امريكا		
5)	جزء محدد على الأرض صغيراً أو كبيراً يسمى								
أ	مكان	ب	اقتصاد	ج	بيئة	د	تاريخ		
6)	هو تحول الأرض الخصبة الى أرض صحراوية مع مرور الزمن								
أ	طبيعة	ب	تصحر	ج	حياة فطرية	د	غابات		
7)	من الحيوانات البرية التي تعيش في بيئة المملكة العربية السعودية								
أ	الفيل	ب	الغزال	ج	الدب	د	الأسد		
8)	من طرق حركة البضائع حركة								
أ	السياحة	ب	التمور	ج	الدراسة	د	العمل		
9)	يسمى الشخص الذي يدرس الجغرافيا								
أ	اقتصادي	ب	جغرافي	ج	مؤرخ	د	عالم		
10)	هو كل ما ينتج ويصنع مما يحتاج له الانسان ويستهلكه								
أ	اقتصاد	ب	سلع	ج	تجارة	د	ميزان تجاري		
11)	من أنواع الإنتاج المادي								
أ	التعليم	ب	صناعة السيارات	ج	الصحة	د	الكهرباء		

ب) ضع علامة (صح) أمام العبارة الصحيحة وعلامة (خطأ) امام العبارة الخاطئة :	10 درجات	

1)	رسم الانسان الخرائط واستعملها من الاف السنين .	
2)	تمكننا الخرائط من معرفة الأماكن والمواقع .	
3)	الشمال الشرقي من الجهات الفرعية .	
4)	تستورد المملكة من الخارج بعض الفواكة والالكترونيات	
5)	من طرق استفادة الانسان من التربة الخصبة استخدامها في الزراعة .	
6)	العنوان الوطني هو رموز وأسماء لمكان محدد لسهولة الوصول اليه .	
7)	الجغرافيا نوعان طبيعية وبشرية .	
8)	التعليم والصحة من الإنتاج المادي .	
9)	ترك بقايا الطعام بعد الانتهاء من النزهة سلوك سليم .	
10)	يعتبر شراء الدواء من الصيدلية انتاج .	

السؤال الثاني: أ) حدد الجهات الاصلية	4 درجات	

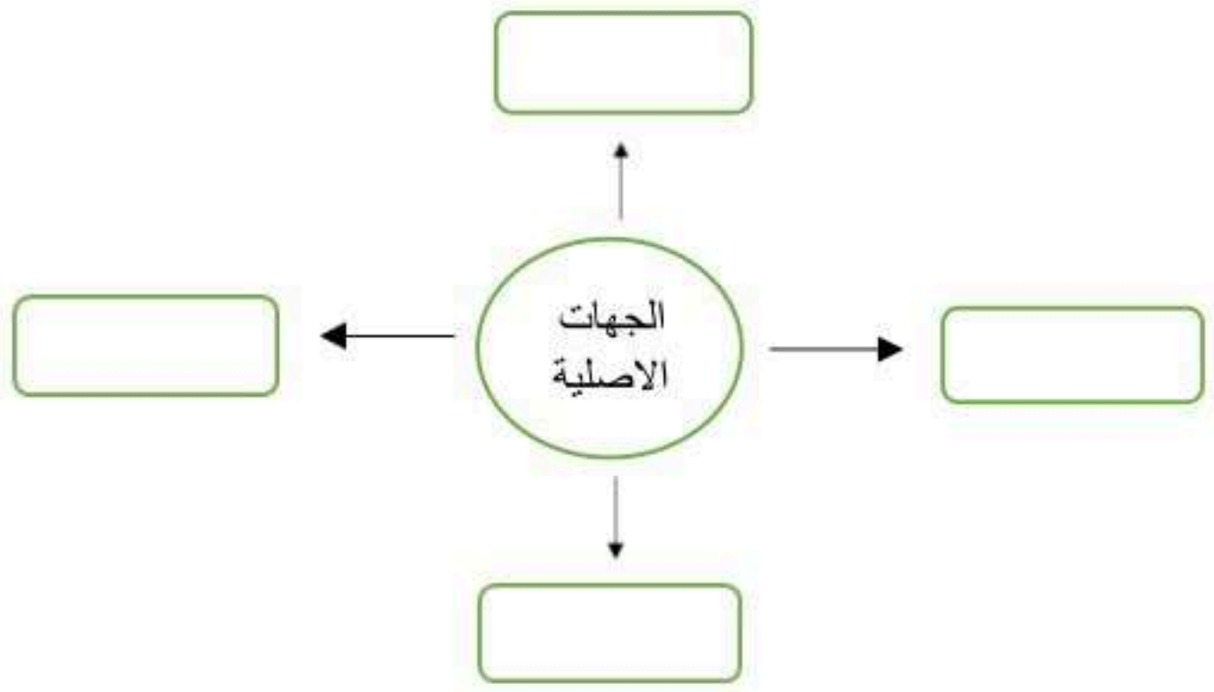

ب) صنف السلع الضرورية والغير ضرورية في الجدول التالي:	5 درجات	

السيارات الفارهة \ الملابس \ المجوهرات \ الدواء \ الغذاء

سلع ضرورية	سلع غير ضرورية

مع أطيب التمنيات لك بالتوفيق والنجاح الباهر ....

معلمة المادة:

اختبار قصير (1) الفترة الثانية لمادة الدراسات الاجتماعية للصف الرابع الفصل الدراسي الأول للعام 1447هـ

اسم الطالبة /

10

السؤال الأول : اختاري الإجابة الصحيحة فيما يلي بوضع دائرة عليها:

1	هي كل ما يتعلق بالكرة الأرضية وتكوينها وما يحدث على سطحها من ظواهر طبيعية وبشرية:					
أ	التاريخ	ب	الاقتصاد	ج	الجغرافيا	
2	يقع وطني في قارة :					
أ	آسيا	ب	أفريقيا	ج	أوروبا	
3	حينما تكون الشمس أمامي في الصباح يكون ..... خلفي :					
أ	الشرق	ب	الغرب	ج	الشمال	
4	تساعدنا الخرائط على تحديد :					
أ	المواقع	ب	المباني	ج	الزمن	
5	عندما نحتاج إلى تحديد موقع أو مكان فإننا نسال هذا السؤال :					
أ	ما هو ؟	ب	أين هو ؟	ج	كيف نتصرف تجاه المكان ؟	
6	يساعدني تحديد الجهات على معرفة ..... لأداء الصلاة :					
أ	وقت الصلاة	ب	المسافة	ج	اتجاه القبلة	

السؤال الثاني : حددي الجهات الأصلية على المخطط التالي :

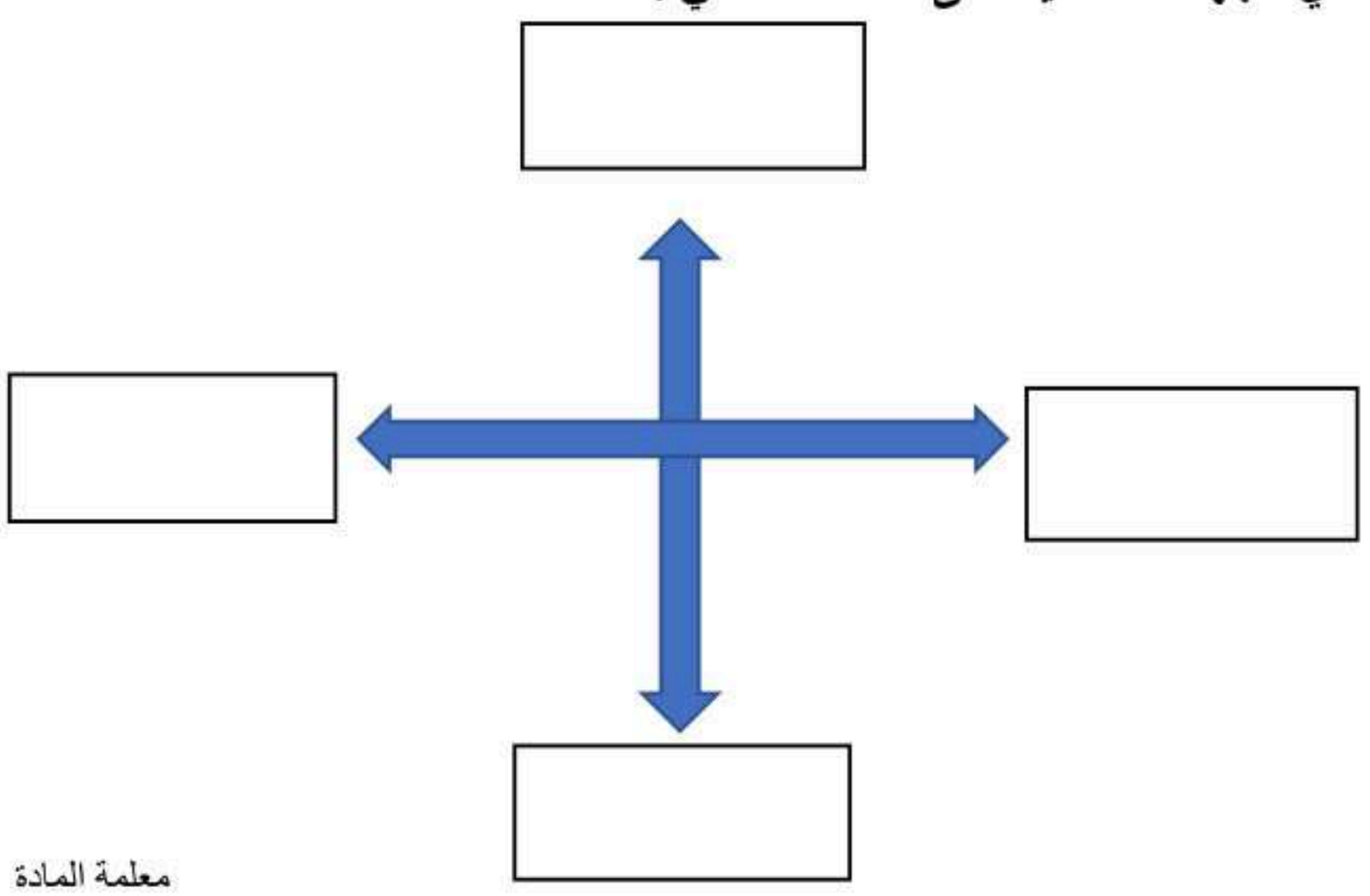

معلمة المادة : أ / هالة

نموذج الإجابة

فصل الدراسي الأول للعام 1447هـ

اسم الطالبة /

10

السؤال الأول : اختاري الإجابة الصحيحة فيما يلي بوضع دائرة عليها:

1	هي كل ما يتعلق بالكرة الأرضية وتكوينها وما يحدث على سطحها من ظواهر طبيعية وبشرية:						
أ	التاريخ	ب	الاقتصاد	ج	الجغرافيا		
2	يقع وطني في قارة :						
أ	آسيا	ب	أفريقيا	ج	أوروبا		
3	حينما تكون الشمس أمامي في الصباح يكون ..... خلفي :						
أ	الشرق	ب	الغرب	ج	الشمال		
4	تساعدنا الخرائط على تحديد :						
أ	المواقع	ب	المباني	ج	الزمن		
5	عندما نحتاج إلى تحديد موقع أو مكان فإننا نسال هذا السؤال :						
أ	ما هو ؟	ب	أين هو ؟	ج	كيف نتصرف تجاه المكان ؟		
6	يساعدني تحديد الجهات على معرفة ..... لأداء الصلاة :						
أ	وقت الصلاة	ب	المسافة	ج	اتجاه القبلة		

السؤال الثاني : حددي الجهات الأصلية على المخطط التالي :

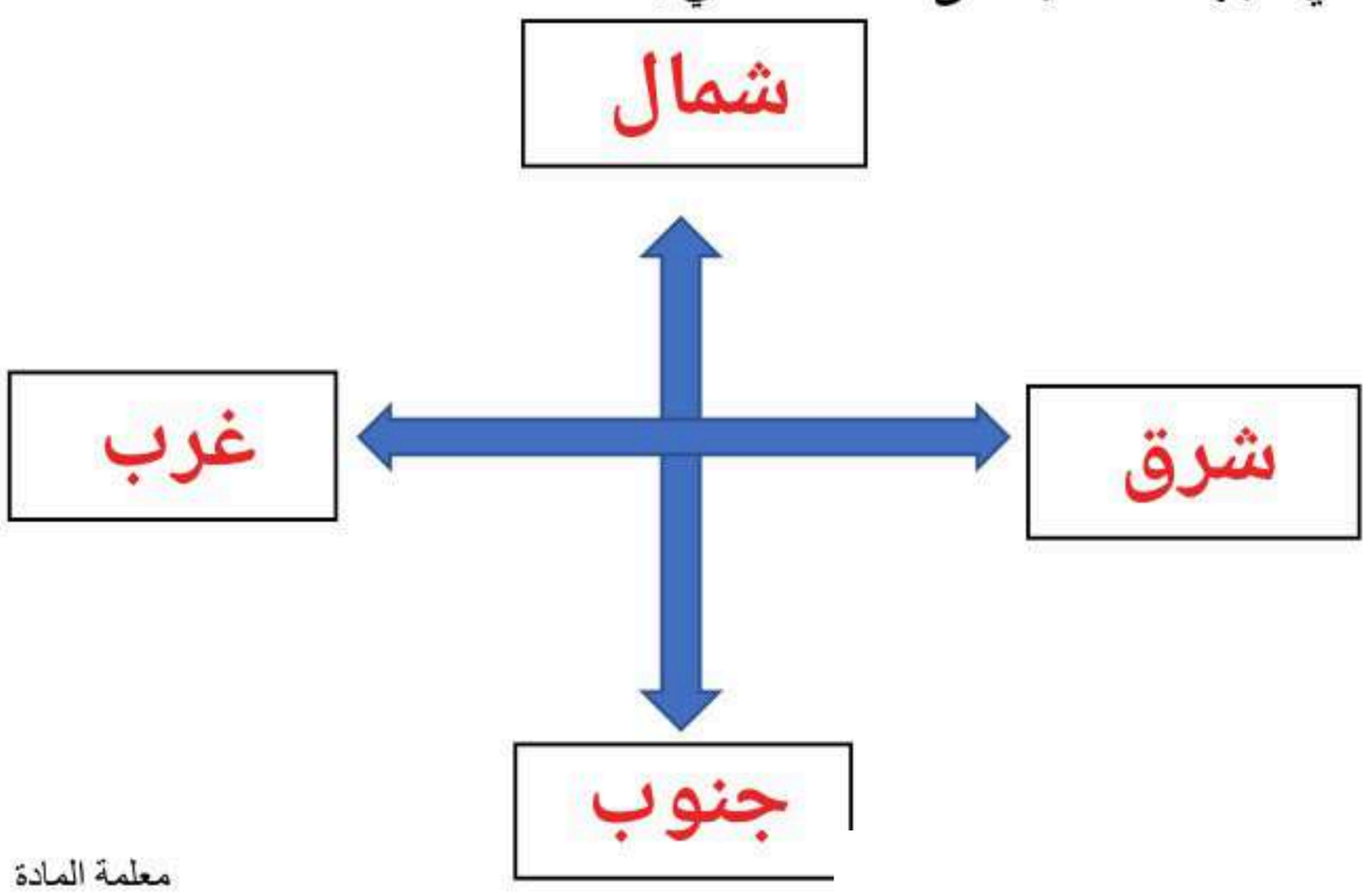

معلمة المادة : أ / هالة

المملكة العربية السعودية.
وزارة التعليم.
إدارة تعليم .
مكتب تعليم ..
مدرسة

بسم الله الرحمن الرحيم

المادة الدراسات الاجتماعية.

الرابع

الوحدة الثالثة الجغرافيا

الاسم :

السؤال الأول:

اختر الإجابة الصحيحة لكل فقرة من الفقرات التالية:

1	:مجموعة الخصائص والسمات التي يتشارك فيها المجتمع السعودي تسمى			
	الثقافة الشعبية	الهوية الوطنية	العادات والتقاليد	المعالم التاريخية
2	:بقعة الأرض التي ننتمي إليها ونفخر بها وعاش عليها آباؤنا وأجدادنا هي			
	المدينة	القرية	الوطن	البيت
3	أي من التالي يعد من مكونات الثقافة الوطنية؟			
	أجهزة الحاسب	اللغة	الشوارع	السيارات
4	:أساليب حياة الناس وطريقة معيشتهم وتفاعلهم وقيمهم المشتركة تسمى			
	الهوايات الشخصية	القوانين المدرسية	الثقافة الوطنية	الأنشطة الرياضية
5	:كون المملكة العربية السعودية مهبط الوحي وقبلة المسلمين يعزز من مكانتها			
	الاقتصادية	الجغرافية	الرياضية	الدينية

السؤال الثاني :

حدد كلمة صح أو خطأ لكل فقرة من الفقرات الآتية:

1	.حب الوطن والولاء لقيادته من أهم مظاهر الهوية الوطنية	○ صح	○ خطأ
2	.اللغة والدين لا يعتبران من مكونات الثقافة الوطنية	○ صح	○ خطأ
3	.الوطن يقتصر فقط على المكان الذي نعيش فيه حالياً	○ صح	○ خطأ
4	.الاعتزاز بتاريخ وطننا وتراثه يقوي هويتنا الوطنية	○ صح	○ خطأ
5	.تتشابه الثقافة الوطنية في جميع دول العالم	○ صح	○ خطأ

انتهت الأسئلة ,,,,

المملكة العربية السعودية.
وزارة التعليم.
إدارة تعليم .
مكتب تعل
مدرسة

بسم الله الرحمن الرحيم

المادة الدراسات الاجتماعية.

الرابع

نموذج الإجابة

الاسم	

السؤال الأول:

اختر الإجابة الصحيحة لكل فقرة من الفقرات التالية:

1	:مجموعة الخصائص والسمات التي يتشارك فيها المجتمع السعودي تسمى			
	الثقافة الشعبية	الهوية الوطنية	العادات والتقاليد	المعالم التاريخية
2	:بقعة الأرض التي ننتمي إليها ونفخر بها وعاش عليها آباؤنا وأجدادنا هي			
	المدينة	القرية	الوطن	البيت
3	أي من التالي يعد من مكونات الثقافة الوطنية؟			
	أجهزة الحاسب	اللغة	الشوارع	السيارات
4	:أساليب حياة الناس وطريقة معيشتهم وتفاعلهم وقيمهم المشتركة تسمى			
	الهوايات الشخصية	القوانين المدرسية	الثقافة الوطنية	الأنشطة الرياضية
5	:كون المملكة العربية السعودية مهبط الوحي وقبلة المسلمين يعزز من مكانتها			
	الاقتصادية	الجغرافية	الرياضية	الدينية

السؤال الثاني :

حدد كلمة صح أو خطأ لكل فقرة من الفقرات الآتية:

1	.حب الوطن والولاء لقيادته من أهم مظاهر الهوية الوطنية	○ صح	○ خطأ
2	.اللغة والدين لا يعتبران من مكونات الثقافة الوطنية	○ صح	○ خطأ
3	.الوطن يقتصر فقط على المكان الذي نعيش فيه حالياً	○ صح	○ خطأ
4	.الاعتزاز بتاريخ وطننا وتراثه يقوي هويتنا الوطنية	○ صح	○ خطأ
5	.تتشابه الثقافة الوطنية في جميع دول العالم	○ صح	○ خطأ

انتهت الأسئلة ,,,,

المملكة العربية السعودية.
وزارة التعليم.
إدارة تعليم .
مكتب تعليم ..
مدرسة

بسم الله الرحمن الرحيم

المادة الدراسات الاجتماعية.

الرابع

الوحدة الرابعه الاقتصاد	
الاسم :	

السؤال الأول:

اختر الإجابة الصحيحة لكل فقرة من الفقرات التالية:

1	أي من التالي يعتبر مثالاً على الإنتاج غير المادي)الخدمات(؟			
	صناعة السيارات	إنتاج الحليب	العلاج في المستشفيات	صناعة الهو اتف
2	:عملية تحويل القطن إلى ملابس تسمى			
	استهلاكاً	إنتاجاً	توزيعاً	تبادلاً
3	أي من هذه السلع يعد من السلع الضرورية؟			
	المجوهرات	السيارة الفارهة	الملابس الأساسية	الألعاب الإلكترونية
4	:كل ما يتعلق بإنتاج السلع والخدمات وتوزيعها وتبادلها واستهلاكها يسمى			
	الإنتاج فقط	الاستهلاك فقط	التجارة	النشاط الاقتصادي
5	:صناعة التمور وزيت الزيتون هي مثال على			
	إنتاج غير مادي	إنتاج مادي	خدمات سياحية	خدمات تعليمية
6	أي من التالي يعتبر مثالاً على الموارد البشرية؟			
	النفط	الطبيب	المصنع	المال
7	:القدرة على تحريك الآلات والمعدات تُسمى			
	الاستهلاك	الادخار	الطاقة	الإنتاج
8	:تخصيص جزء من المال وحفظه للمستقبل هو			
	استهلاك	إنتاج	استثمار	ادخار
9	:الماء والأشجار والتربة هي أمثلة على الموارد			
	البشرية	الطبيعية	رأس المال	الصناعية
10	:استعمال الموارد والأموال باعتدال يسمى			
	ترشيد الاستهلاك	الإسراف	الإنتاج	التجارة
11	:الطريقة القديمة لشراء السلع قبل ظهور النقود كانت تسمى			

	التحويل البنكي	المقايضة	البطاقة الإلكترونية	الدفع النقدي
12	أي من التالي يعد من فوائد التبادل التجاري؟			
	شراء سلع لا تُصنع في وطننا	صنع كل شيء نحتاجه داخل وطننا فقط	الاعتماد على المقايضة فقط	جعل التجارة بطيئة وصعبة
13	:عندما تشتري من متجر باستخدام بطاقة الصراف الآلي، فإن هذه الطريقة تسمى			
	مقايضة	هدية	دفع إلكتروني	اقتراض
14	:من الأمثلة على السلع التي يبيعها وطننا)المملكة العربية السعودية (للدول الأخرى			
	السيارات	الأجهزة الإلكترونية	النفط والتمور	بعض أنواع الفواكه الاستوائية
15	:سبب حرص الأب على شراء السلع المصنّعة في المملكة العربية السعودية هو			
	لأنها أرخص دائمًا	لدعم اقتصاد وطنه	لأنها الطريقة الوحيدة للشراء	لأنها سلع قديمة

السؤال الثاني :

حدد كلمة صح أو خطأ لكل فقرة من الفقرات الآتية:

1	.السلع الضرورية هي التي يمكن الاستغناء عنها مثل السيارات الفارهة	◯ صح	◯ خطأ
2	.التعليم في المدارس والسياحة هما من أمثلة الإنتاج غير المادي	◯ صح	◯ خطأ
3	.الإنتاج هو عملية استخدام السلع والخدمات فقط	◯ صح	◯ خطأ
4	.النشاط الاقتصادي يبدأ بالإنتاج وينتهي بالاستهلاك	◯ صح	◯ خطأ
5	.الملابس الأساسية والطعام يعتبران من السلع غير الضرورية	◯ صح	◯ خطأ
6	.المعلم الذي يشرح الدرس يعتبر من الموارد الطبيعية	◯ صح	◯ خطأ
7	.الطاقة الشمسية وطاقة الرياح هي من أنواع الطاقة المتجددة	◯ صح	◯ خطأ
8	.الادخار يساعد على تحقيق الأهداف وشراء الحاجات في المستقبل	◯ صح	◯ خطأ
9	.شراء الأشياء باهظة الثمن دائماً هو من صور ترشيد الاستهلاك	◯ صح	◯ خطأ
10	.المصانع والمعدات تعد من رأس المال الذي يساعد في الإنتاج	◯ صح	◯ خطأ
11	.التبادل التجاري هو تداول السلع والخدمات بين الناس فقط، ولا يشمل الدول	◯ صح	◯ خطأ
12	.في الماضي، كان التبادل التجاري يستغرق وقتًا طويلاً بسبب صعوبة المواصلات	◯ صح	◯ خطأ
13	.شراء جهاز إلكتروني من دولة أخرى يعتبر مثالاً على فوائد التبادل التجاري	◯ صح	◯ خطأ
14	.العملة المستخدمة في جميع دول العالم هي نفسها	◯ صح	◯ خطأ
15	.مقايضة خمس تفاحات بأربع برتقالات تعتبر شكلاً من أشكال التبادل التجاري	◯ صح	◯ خطأ

انتهت الأسئلة ,,,,

المملكة العربية السعودية.
وزارة التعليم.
إدارة تعليم
مكتب تعل
مدرسة

بسم الله الرحمن الرحيم

المادة الدراسات الاجتماعية.

الرابع

نموذج الإجابة

الاسم :

السؤال الأول:

اختر الإجابة الصحيحة لكل فقرة من الفقرات التالية:

1	أي من التالي يعتبر مثالاً على الإنتاج غير المادي)الخدمات(؟			
	صناعة السيارات	إنتاج الحليب	العلاج في المستشفيات	صناعة الهواتف
2	:عملية تحويل القطن إلى ملابس تسمى			
	استهلاكاً	إنتاجاً	توزيعاً	تبادلاً
3	أي من هذه السلع يعد من السلع الضرورية؟			
	المجوهرات	السيارة الفارهة	الملابس الأساسية	الألعاب الإلكترونية
4	:كل ما يتعلق بإنتاج السلع والخدمات وتوزيعها وتبادلها واستهلاكها يسمى			
	الإنتاج فقط	الاستهلاك فقط	التجارة	النشاط الاقتصادي
5	:صناعة التمور وزيت الزيتون هي مثال على			
	إنتاج غير مادي	إنتاج مادي	خدمات سياحية	خدمات تعليمية
6	أي من التالي يعتبر مثالاً على الموارد البشرية؟			
	النفط	الطبيب	المصنع	المال
7	:القدرة على تحريك الآلات والمعدات تُسمى			
	الاستهلاك	الادخار	الطاقة	الإنتاج
8	:تخصيص جزء من المال وحفظه للمستقبل هو			
	استهلاك	إنتاج	استثمار	ادخار
9	:الماء والأشجار والتربة هي أمثلة على الموارد			
	البشرية	الطبيعية	رأس المال	الصناعية
10	:استعمال الموارد والأموال باعتدال يسمى			
	ترشيد الاستهلاك	الإسراف	الإنتاج	التجارة
11	:الطريقة القديمة لشراء السلع قبل ظهور النقود كانت تسمى			

	التحويل البنكي	المقايضة	البطاقة الإلكترونية	الدفع النقدي
12	أي من التالي يعد من فوائد التبادل التجاري؟			
	شراء سلع لا تُصنع في وطننا	صنع كل شيء نحتاجه داخل وطننا فقط	الاعتماد على المقايضة فقط	جعل التجارة بطيئة وصعبة
13	:عندما تشتري من متجر باستخدام بطاقة الصراف الآلي، فإن هذه الطريقة تسمى			
	مقايضة	هدية	دفع إلكتروني	اقتراض
14	:من الأمثلة على السلع التي يبيعها وطننا)المملكة العربية السعودية (للدول الأخرى			
	السيارات	الأجهزة الإلكترونية	النفط والتمور	بعض أنواع الفواكه الاستوائية
15	:سبب حرص الأب على شراء السلع المصنّعة في المملكة العربية السعودية هو			
	لأنها أرخص دائمًا	لدعم اقتصاد وطنه	لأنها الطريقة الوحيدة للشراء	لأنها سلع قديمة

السؤال الثاني :

حدد كلمة صح أو خطأ لكل فقرة من الفقرات الآتية:

1	.السلع الضرورية هي التي يمكن الاستغناء عنها مثل السيارات الفارهة	○ صح	○ خطأ
2	.التعليم في المدارس والسياحة هما من أمثلة الإنتاج غير المادي	○ صح	○ خطأ
3	.الإنتاج هو عملية استخدام السلع والخدمات فقط	○ صح	○ خطأ
4	.النشاط الاقتصادي يبدأ بالإنتاج وينتهي بالاستهلاك	○ صح	○ خطأ
5	.الملابس الأساسية والطعام يعتبران من السلع غير الضرورية	○ صح	○ خطأ
6	.المعلم الذي يشرح الدرس يعتبر من الموارد الطبيعية	○ صح	○ خطأ
7	.الطاقة الشمسية وطاقة الرياح هي من أنواع الطاقة المتجددة	○ صح	○ خطأ
8	.الادخار يساعد على تحقيق الأهداف وشراء الحاجات في المستقبل	○ صح	○ خطأ
9	.شراء الأشياء باهظة الثمن دائماً هو من صور ترشيد الاستهلاك	○ صح	○ خطأ
10	.المصانع والمعدات تعد من رأس المال الذي يساعد في الإنتاج	○ صح	○ خطأ
11	.التبادل التجاري هو تداول السلع والخدمات بين الناس فقط، ولا يشمل الدول	○ صح	○ خطأ
12	.في الماضي، كان التبادل التجاري يستغرق وقتًا طويلاً بسبب صعوبة المواصلات	○ صح	○ خطأ
13	.شراء جهاز إلكتروني من دولة أخرى يعتبر مثالاً على فوائد التبادل التجاري	○ صح	○ خطأ
14	.العملة المستخدمة في جميع دول العالم هي نفسها	○ صح	○ خطأ
15	.مقايضة خمس تفاحات بأربع برتقالات تعتبر شكلاً من أشكال التبادل التجاري	○ صح	○ خطأ

انتهت الأسئلة ,,,,

المملكة العربية السعودية	إدارة تعليم	المادة : الدراسات الاجتماعية
وزارة التعليم	مدرسة	الصف: الرابع الابتدائي
اسم الطالب/ة:		اختبار الوحدة الثالثة

السؤال الأول: اختار الإجابة الصحيحة فيما يلي بوضع دائرة عليها:

١	يسهل موقع المملكة العربية السعودية الحركة لأنه يربط بين قارات:							
أ	آسيا، أفريقيا، وأمريكا الجنوبية	ب	أوروبا، أستراليا، وآسيا	ج	آسيا، أفريقيا، وأوروبا	د	أمريكا الشمالية، أمريكا الجنوبية، وأفريقيا	
٢	تقع المملكة العربية السعودية في أقصى الجنوب الغربي من قارة ...							
أ	أفريقيا	ب	أوروبا	ج	آسيا	د	أستراليا	
٣	من أهم صادرات المملكة العربية السعودية؟							
أ	الإلكترونيات	ب	النفط	ج	السيارات	د	الفواكه الاستوائية	
٤	انتقال البضائع من دولة أخرى إلى داخل المملكة يسمى:							
أ	تصدير	ب	استيراد	ج	سياحة	د	صناعة	
٥	العلم الذي يدرس الأرض وما عليها من جبال وأنهار ومدن يسمى علم...							
أ	التاريخ	ب	الجغرافيا	ج	الرياضيات	د	العلوم	
٦	عندما نريد أن نعرف مكان مدينة ما، فإننا نستخدم...							
أ	الساعة	ب	ميزان الحرارة	ج	الخريطة	د	المسطرة	
٧	أي من التالي يعتبر من المظاهر الطبيعية؟							
أ	الجسر	ب	النهر	ج	البيت	د	الطريق	
٨	الجهة التي تقع بين الشمال والشرق هي:							
أ	الشمال الغربي	ب	الجنوب الشرقي	ج	الجنوب الغربي	د	الشمال الشرقي	
٩	عندما تكون الشمس أمامك في الصباح، فإن جهة الغرب تكون:							
أ	أمامك	ب	خلفك	ج	على يمينك	د	على يسارك	
١٠	تساعدنا معرفة الاتجاهات في تحديد:							
أ	الوقت	ب	درجة الحرارة	ج	اتجاه القبلة	د	فصول السنة	
١١	من مكونات العنوان الوطني؟							
أ	لون المبنى	ب	اسم مدير المدرسة	ج	الرمز البريدي	د	عدد السكان	

تابع خلف الورقة

١٢	التعريف الأنسب لكلمة "المكان"؟							
أ	كوكب في الفضاء	ب	جزء محدد على سطح الأرض	ج	فصل من فصول السنة	د	اسم شارع فقط	
١٣	الهدف الرئيسي من إنشاء المحميات الطبيعية؟							
أ	بناء مصانع جديدة	ب	حماية النباتات والحيوانات المهددة بالانقراض	ج	توفير أماكن لرمي النفايات	د	استخراج المعادن الثمينة	
١٤	المدينة التي تقع على شاطئ البحر تسمى مدينة:							
أ	جبلية	ب	صحراوية	ج	ساحلية	د	داخلية	
١٥	واحة الأحساء هي مكان سياحي يشتهر بـ:							
أ	الجبال العالية	ب	كثرة النخيل والعيون	ج	المباني الشاهقة	د	الأسواق القديمة	

السؤال الثاني : ضع إشارة (✓) امام الإجابة الصحيحة وإشارة (×) أمام الإجابة الخاطئة:

١	تقتصر الحركة على انتقال البضائع فقط ولا تشمل حركة الناس.	
٢	تصدير السلع يعني بيعها وإرسالها إلى دول أخرى.	
٣	تستورد المملكة العربية السعودية التمور لندرتها في البلاد.	
٤	تساعد الحركة على حصول الناس على احتياجاتهم من السلع والمنتجات.	
٥	الجغرافيا الطبيعية تدرس كيفية بناء الإنسان للمدن.	
٦	تساعدنا الخرائط على تحديد المواقع ومعرفة الأماكن.	
٧	تفاعل الإنسان مع المكان الذي يعيش فيه يسمى البيئة.	
٨	تُستخدم الأجهزة الحديثة مثل الهواتف الذكية في تحديد المواقع.	
٩	جدة التاريخية هي مثال على مكان سياحي حديث جداً.	
١٠	يأتي الكثير من الناس إلى المملكة العربية السعودية بهدف العمل.	
١١	استخدام المدفأة في فصل الشتاء هو شكل من أشكال تعديل البيئة.	
١٢	الحفاظ على نظافة المكان الذي نزوره هو من التعامل السليم مع البيئة.	
١٣	يُسمح بالصيد داخل المحميات الطبيعية للحفاظ على التوازن البيئي.	
١٤	قطع الأشجار بشكل جائر يمكن أن يؤدي إلى حدوث التصحر.	
١٥	تحوّل الأراضي الخصبة إلى أراضٍ صحراوية بسبب الجفاف أو سوء الاستخدام يسمى" التصحر "	

انتهت الأسئلة

المملكة ال	
وزارة	
اسم الـ	

نموذج الإجابة

المادة : الدراسات الاجتماعية	
الصف: الرابع الابتدائي	
اختبار الوحدة الثالثة	

السؤال الأول: اختار الإجابة الصحيحة فيما يلي بوضع دائرة عليها:

١	يسهل موقع المملكة العربية السعودية الحركة لأنه يربط بين قارات:							
أ	آسيا، أفريقيا، وأمريكا الجنوبية	ب	أوروبا، أستراليا، وآسيا	ج	آسيا، أفريقيا، وأوروبا	د	أمريكا الشمالية، أمريكا الجنوبية، وأفريقيا	
٢	تقع المملكة العربية السعودية في أقصى الجنوب الغربي من قارة ...							
أ	أفريقيا	ب	أوروبا	ج	آسيا	د	أستراليا	
٣	من أهم صادرات المملكة العربية السعودية؟							
أ	الإلكترونيات	ب	النفط	ج	السيارات	د	الفواكه الاستوائية	
٤	انتقال البضائع من دولة أخرى إلى داخل المملكة يسمى:							
أ	تصدير	ب	استيراد	ج	سياحة	د	صناعة	
٥	العلم الذي يدرس الأرض وما عليها من جبال وأنهار ومدن يسمى علم...							
أ	التاريخ	ب	الجغرافيا	ج	الرياضيات	د	العلوم	
٦	عندما نريد أن نعرف مكان مدينة ما، فإننا نستخدم...							
أ	الساعة	ب	ميزان الحرارة	ج	الخريطة	د	المسطرة	
٧	أي من التالي يعتبر من المظاهر الطبيعية؟							
أ	الجسر	ب	النهر	ج	البيت	د	الطريق	
٨	الجهة التي تقع بين الشمال والشرق هي:							
أ	الشمال الغربي	ب	الجنوب الشرقي	ج	الجنوب الغربي	د	الشمال الشرقي	
٩	عندما تكون الشمس أمامك في الصباح، فإن جهة الغرب تكون:							
أ	أمامك	ب	خلفك	ج	على يمينك	د	على يسارك	
١٠	تساعدنا معرفة الاتجاهات في تحديد:							
أ	الوقت	ب	درجة الحرارة	ج	اتجاه القبلة	د	فصول السنة	
١١	من مكونات العنوان الوطني؟							
أ	لون المبنى	ب	اسم مدير المدرسة	ج	الرمز البريدي	د	عدد السكان	

تابع خلف الورقة

١٢	التعريف الأنسب لكلمة "المكان"؟							
أ	كوكب في الفضاء	ب	جزء محدد على سطح الأرض	ج	فصل من فصول السنة	د	اسم شارع فقط	
١٣	الهدف الرئيسي من إنشاء المحميات الطبيعية؟							
أ	بناء مصانع جديدة	ب	حماية النباتات والحيوانات المهددة بالانقراض	ج	توفير أماكن لرمي النفايات	د	استخراج المعادن الثمينة	
١٤	المدينة التي تقع على شاطئ البحر تسمى مدينة:							
أ	جبلية	ب	صحراوية	ج	ساحلية	د	داخلية	
١٥	واحة الأحساء هي مكان سياحي يشتهر بـ:							
أ	الجبال العالية	ب	كثرة النخيل والعيون	ج	المباني الشاهقة	د	الأسواق القديمة	

السؤال الثاني : ضع إشارة (✓) امام الإجابة الصحيحة وإشارة (×) أمام الإجابة الخاطئة:

١	تقتصر الحركة على انتقال البضائع فقط ولا تشمل حركة الناس.	×
٢	تصدير السلع يعني بيعها وإرسالها إلى دول أخرى.	✓
٣	تستورد المملكة العربية السعودية التمور لندرتها في البلاد.	×
٤	تساعد الحركة على حصول الناس على احتياجاتهم من السلع والمنتجات.	✓
٥	الجغرافيا الطبيعية تدرس كيفية بناء الإنسان للمدن.	×
٦	تساعدنا الخرائط على تحديد المواقع ومعرفة الأماكن.	✓
٧	تفاعل الإنسان مع المكان الذي يعيش فيه يسمى البيئة.	✓
٨	تُستخدم الأجهزة الحديثة مثل الهواتف الذكية في تحديد المواقع.	✓
٩	جدة التاريخية هي مثال على مكان سياحي حديث جداً.	×
١٠	يأتي الكثير من الناس إلى المملكة العربية السعودية بهدف العمل.	✓
١١	استخدام المدفأة في فصل الشتاء هو شكل من أشكال تعديل البيئة.	×
١٢	الحفاظ على نظافة المكان الذي نزوره هو من التعامل السليم مع البيئة.	✓
١٣	يُسمح بالصيد داخل المحميات الطبيعية للحفاظ على التوازن البيئي.	×
١٤	قطع الأشجار بشكل جائر يمكن أن يؤدي إلى حدوث التصحر.	✓
١٥	تحوّل الأراضي الخصبة إلى أراضٍ صحراوية بسبب الجفاف أو سوء الاستخدام يسمى" التصحر "	✓

انتهت الأسئلة

المملكة العربية السعودية	إدارة تعليم		المادة : الدراسات الاجتماعية
وزارة التعليم	مدرسة		الصف: الرابع الابتدائي
اسم الطالب/ة:			اختبار الوحدة الرابعة

الاسم :

السؤال الأول: اختر الإجابة الصحيحة لكل فقرة من الفقرات التالية:

١	أي من التالي يعتبر مثالاً على الإنتاج غير المادي الخدمات؟			
	صناعة السيارات	إنتاج الحليب	العلاج في المستشفيات	صناعة الهواتف
٢	:عملية تحويل القطن إلى ملابس تسمى			
	استهلاكاً	إنتاجاً	توزيعاً	تبادلاً
٣	أي من هذه السلع يعد من السلع الضرورية؟			
	المجوهرات	السيارة الفارهة	الملابس الأساسية	الألعاب الإلكترونية
٤	:كل ما يتعلق بإنتاج السلع والخدمات وتوزيعها وتبادلها واستهلاكها يسمى			
	الإنتاج فقط	الاستهلاك فقط	التجارة	النشاط الاقتصادي
٥	:صناعة التمور وزيت الزيتون هي مثال على			
	إنتاج غير مادي	إنتاج مادي	خدمات سياحية	خدمات تعليمية
٦	أي من التالي يعتبر مثالاً على الموارد البشرية؟			
	النفط	الطبيب	المصنع	المال
٧	:القدرة على تحريك الآلات والمعدات تُسمى			
	الاستهلاك	الادخار	الطاقة	الإنتاج
٨	:تخصيص جزء من المال وحفظه للمستقبل هو			
	استهلاك	إنتاج	استثمار	ادخار
٩	:الماء والأشجار والتربة هي أمثلة على الموارد			
	البشرية	الطبيعية	رأس المال	الصناعية
١٠	:استعمال الموارد والأموال باعتدال يسمى			
	ترشيد الاستهلاك	الإسراف	الإنتاج	التجارة
١١	:الطريقة القديمة لشراء السلع قبل ظهور النقود كانت تسمى			
	التحويل البنكي	المقايضة	البطاقة الإلكترونية	الدفع النقدي
١٢	أي من التالي يعد من فوائد التبادل التجاري؟			
	شراء سلع لا تُصنع في وطننا	صنع كل شيء نحتاجه داخل وطننا فقط	الاعتماد على المقايضة فقط	جعل التجارة بطيئة وصعبة

تابع خلف الورقة

١٣	:عندما تشتري من متجر باستخدام بطاقة الصراف الآلي، فإن هذه الطريقة تسمى			
	مقايضة	هدية	دفع إلكتروني	اقتراض
١٤	:من الأمثلة على السلع التي يبيعها وطننا)المملكة العربية السعودية (للدول الأخرى			
	السيارات	الأجهزة الإلكترونية	النفط والتمور	بعض أنواع الفواكه الاستوائية
١٥	:سبب حرص الأب على شراء السلع المصنّعة في المملكة العربية السعودية هو			
	لأنها أرخص دائمًا	لدعم اقتصاد وطنه	لأنها الطريقة الوحيدة للشراء	لأنها سلع قديمة

السؤال الثاني :

حدد كلمة صح أو خطأ لكل فقرة من الفقرات الآتية:

١	.السلع الضرورية هي التي يمكن الاستغناء عنها مثل السيارات الفارهة	
٢	.التعليم في المدارس والسياحة هما من أمثلة الإنتاج غير المادي	
٣	.الإنتاج هو عملية استخدام السلع والخدمات فقط	
٤	.النشاط الاقتصادي يبدأ بالإنتاج وينتهي بالاستهلاك	
٥	.الملابس الأساسية والطعام يعتبران من السلع غير الضرورية	
٦	.المعلم الذي يشرح الدرس يعتبر من الموارد الطبيعية	
٧	.الطاقة الشمسية وطاقة الرياح هي من أنواع الطاقة المتجددة	
٨	.الادخار يساعد على تحقيق الأهداف وشراء الحاجات في المستقبل	
٩	.شراء الأشياء باهظة الثمن دائماً هو من صور ترشيد الاستهلاك	
١٠	.المصانع والمعدات تعد من رأس المال الذي يساعد في الإنتاج	
١١	.التبادل التجاري هو تداول السلع والخدمات بين الناس فقط، ولا يشمل الدول	
١٢	.في الماضي، كان التبادل التجاري يستغرق وقتًا طويلاً بسبب صعوبة المواصلات	
١٣	.شراء جهاز إلكتروني من دولة أخرى يعتبر مثالاً على فوائد التبادل التجاري	
١٤	.العملة المستخدمة في جميع دول العالم هي نفسها	
١٥	.مقايضة خمس تفاحات بأربع برتقالات تعتبر شكلاً من أشكال التبادل التجاري	

انتهت الأسئلة

المملكة العربية السعودية	إدارة تعلي
وزارة التعليم	مدرسة
اسم الطالب/ة:	

دة : الدراسات الاجتماعية	
ف: الرابع الابتدائي	
بار الوحدة الرابعة	

نموذج الإجابة

الاسم :

السؤال الأول: اختر الإجابة الصحيحة لكل فقرة من الفقرات التالية:

١	أي من التالي يعتبر مثالاً على الإنتاج غير المادي الخدمات؟			
	صناعة السيارات	إنتاج الحليب	العلاج في المستشفيات	صناعة الهواتف
٢	:عملية تحويل القطن إلى ملابس تسمى			
	استهلاكاً	إنتاجاً	توزيعاً	تبادلاً
٣	أي من هذه السلع يعد من السلع الضرورية؟			
	المجوهرات	السيارة الفارهة	الملابس الأساسية	الألعاب الإلكترونية
٤	:كل ما يتعلق بإنتاج السلع والخدمات وتوزيعها وتبادلها واستهلاكها يسمى			
	الإنتاج فقط	الاستهلاك فقط	التجارة	النشاط الاقتصادي
٥	:صناعة التمور وزيت الزيتون هي مثال على			
	إنتاج غير مادي	إنتاج مادي	خدمات سياحية	خدمات تعليمية
٦	أي من التالي يعتبر مثالاً على الموارد البشرية؟			
	النفط	الطبيب	المصنع	المال
٧	:القدرة على تحريك الآلات والمعدات تُسمى			
	الاستهلاك	الادخار	الطاقة	الإنتاج
٨	:تخصيص جزء من المال وحفظه للمستقبل هو			
	استهلاك	إنتاج	استثمار	ادخار
٩	:الماء والأشجار والتربة هي أمثلة على الموارد			
	البشرية	الطبيعية	رأس المال	الصناعية
١٠	:استعمال الموارد والأموال باعتدال يسمى			
	ترشيد الاستهلاك	الإسراف	الإنتاج	التجارة
١١	:الطريقة القديمة لشراء السلع قبل ظهور النقود كانت تسمى			
	التحويل البنكي	المقايضة	البطاقة الإلكترونية	الدفع النقدي
١٢	أي من التالي يعد من فوائد التبادل التجاري؟			
	شراء سلع لا تُصنع في وطننا	صنع كل شيء نحتاجه داخل وطننا فقط	الاعتماد على المقايضة فقط	جعل التجارة بطيئة وصعبة

تابع خلف الورقة

١٣	:عندما تشتري من متجر باستخدام بطاقة الصراف الآلي، فإن هذه الطريقة تسمى			
	مقايضة	هدية	دفع إلكتروني	اقتراض
١٤	:من الأمثلة على السلع التي يبيعها وطننا)المملكة العربية السعودية (للدول الأخرى			
	السيارات	الأجهزة الإلكترونية	النفط والتمور	بعض أنواع الفواكه الاستوائية
١٥	:سبب حرص الأب على شراء السلع المصنّعة في المملكة العربية السعودية هو			
	لأنها أرخص دائمًا	لدعم اقتصاد وطنه	لأنها الطريقة الوحيدة للشراء	لأنها سلع قديمة

السؤال الثاني :

حدد كلمة صح أو خطأ لكل فقرة من الفقرات الآتية:

١	.السلع الضرورية هي التي يمكن الاستغناء عنها مثل السيارات الفارهة	✗
٢	.التعليم في المدارس والسياحة هما من أمثلة الإنتاج غير المادي	✓
٣	.الإنتاج هو عملية استخدام السلع والخدمات فقط	✗
٤	.النشاط الاقتصادي يبدأ بالإنتاج وينتهي بالاستهلاك	✓
٥	.الملابس الأساسية والطعام يعتبران من السلع غير الضرورية	✗
٦	.المعلم الذي يشرح الدرس يعتبر من الموارد الطبيعية	✗
٧	.الطاقة الشمسية وطاقة الرياح هي من أنواع الطاقة المتجددة	✓
٨	.الادخار يساعد على تحقيق الأهداف وشراء الحاجات في المستقبل	✓
٩	.شراء الأشياء باهظة الثمن دائماً هو من صور ترشيد الاستهلاك	✗
١٠	.المصانع والمعدات تعد من رأس المال الذي يساعد في الإنتاج	✓
١١	.التبادل التجاري هو تداول السلع والخدمات بين الناس فقط، ولا يشمل الدول	✗
١٢	.في الماضي، كان التبادل التجاري يستغرق وقتًا طويلاً بسبب صعوبة المواصلات	✓
١٣	.شراء جهاز إلكتروني من دولة أخرى يعتبر مثالاً على فوائد التبادل التجاري	✓
١٤	.العملة المستخدمة في جميع دول العالم هي نفسها	✗
١٥	.مقايضة خمس تفاحات بأربع برتقالات تعتبر شكلاً من أشكال التبادل التجاري	✓

انتهت الأسئلة